Họ tên: _____ Ngày: _____

7. Phép trừ trong phạm vi 100 (tiếp)

Đặt tính rồi tính.

1.

82 – 6

82

- 6

2.

74 - 43

74

- 43

3.

50 - 21

50

- 21

4. *Chọn bạn tính sai.*

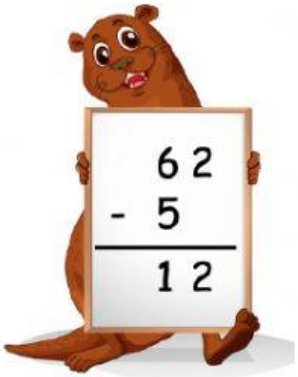

Gấu



Thỏ



Chồn



Cừu

5. *Điền dấu >, < , =.*

57 – 28 ◯ 30

_____

43 – 9 ◯ 65 – 32

_____ _____

LIVEWORKSHEETS

6. *Giải bài toán.*

Cửa hàng nhập về 50 ô tô đồ chơi và 64 hộp lego.

Buổi sáng, cửa hàng bán được 17 ô tô đồ chơi.

Hỏi cửa hàng còn lại bao nhiêu ô tô đồ chơi?

• *Bài toán hỏi gì?* Còn lại: ? ô tô đồ chơi • *Bài toán cho biết gì?* Nhập về: _____ ô tô Đã bán: _____ ô tô	• *Mô hình*	• *Phép tính và câu trả lời* ____ ◯ ____ = ____ Cửa hàng còn lại _____ ô tô đồ chơi.

LIVEWORKSHEETS