UNIT PELAKSANA TEKNIS DINAS SATUAN PENDIDIKAN FORMAL

SD NEGERI KOTAKULON 1 BONDOWOSO

PENILAIAN HARIAN SEMESTER GANJIL

TAHUN PELAJARAN 2020-2021

Nama	**:**	**Bidang Studi**	**: Matematika (KD. 3.4)**
No. Absen	**:**	**Tema**	**: 3. Kegiatanku**
Kelas	**:**	**Hari, tanggal**	**: Selasa, 16 November 2021**

Pilihlah jawaban yang tepat!

1. Hasil dari 5 + 3 adalah ….

   a. 7 b. 8 c. 9

2. Hasil dari 12 – 6 adalah ….

   a. 6 b. 7 c. 8

3. Hasil pengurangan 15 dan 7 adalah ….

   a. 6 b. 7 c. 8

4. Edo memiliki 15 ekor ayam. Ayam itu mati 10 ekor. Sisa ayam Edo adalah ….

   a. 5 ekor b. 6 ekor c. 7 ekor

5. 

   a. 15 b. 16 c. 17

6. 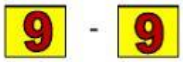

   Hasil dari soal di samping adalah ….

   a. 0 b. 1 c. 2

7. Hasil dari 7 + 5 adalah ….

   a. 11 b. 12 c. 13

8. Ibu membeli 14 buah salak. Diberikan pada Siti 9 buah. Banyaknya buah salak milik ibu sekarang adalah ….

   a. 4 b. 5 c. 6

9. 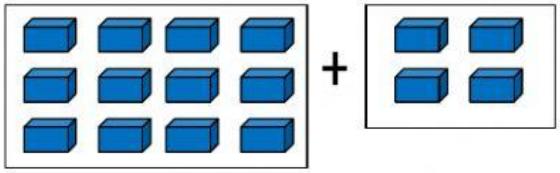
   Jumlah balok di samping adalah …

   a. 16 b. 17 c. 18

10. Pak Rahmat memanen 10 ekor ikan kemudian diberikan pada Udin 6 ekor. Ikan Pak Rahmat sekarang adalah ….

    a. 4 ekor b. 5 ekor c. 6 ekor

LIVEWORKSHEETS

11. Lani memiliki 6 pita dan 3 pita diberikan pada Dayu. Sisa pita milik Lani adalah ….

    a. 1 b. 2 c. 3

12. 15 – 4 = ….

    a. 11 b. 12 c. 13

13. Beni memiliki 13 balon. 6 balonnya meletus. Sisa balon milik Beni sekarang adalah …

    a. 6 balon b. 7 balon c. 8 balon

Pasangkanlah pernyataan sebelah kiri dengan pernyataan sebelah kanan dengan cara menarik garis!

15 + 5	20
2 + 9	9
14 – 5	11
11 – 6	0
9 + 5	14
7 – 7	5

Selamat Mengerjakan

LIVEWORKSHEETS