Les figures musicals

Recorda el valor de cada figura en aquesta taula:

NOM	FIGURA	SILENCI	VALOR
RODONA			4 pulsacions
BLANCA			2 pulsacions
NEGRA			1 pulsacion
CORXERA			mitja pulsació

Digues quantes pulsacions val cadascun d'aquests **patrons rítmics**. Fixa't bé en l'exemple:

Aquest és el patró que estem analitzant.

Cada ratlleta representa el nombre de pulsacions que té cada figura rítmica.

Total: 5 pulsacions

Al final només caldrà sumar el nombre de pulsacions



pulsacions



pulsacions



pulsacions



pulsacions

LIVEWORKSHEETS