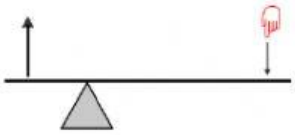
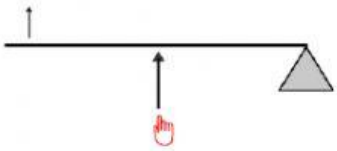
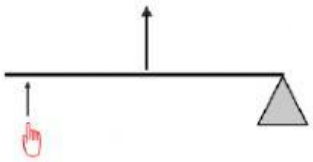
الكفاية : - أن تقارن بين أنواع الروافع.

نشاط علاجي
الشغل و الآلات البسيطة
الرافعة

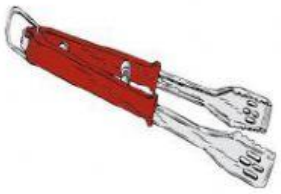
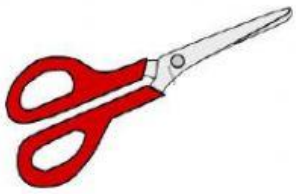
أولاً : صنفي الروافع في الأشكال التالية وفق أنواعها الثلاثة في المكان المخصص أسفل كل شكل :

النوع الأول - النوع الثاني - النوع الثالث

....

ثانياً : أكملي الجدول التالي بكتابة نوع الرافعة و العلاقة بين القوة المؤثرة و المقاومة و نقطة الارتكاز في المكان المخصص من الجدول : (النوع الأول – النوع الثالث – المقاومة – نقطة الارتكاز)

الشكل			
نوع الرافعة		الثاني	
من يقع في الوسط	القوة المؤثرة		

اعداد: معلمات الاول الاعدادي

أتقنت لم تتقن

LIVEWORKSHEETS