בס"ד

התבוננו במשולש שלפניכם:



השלימו: קהה/ישר/חד

- המשולש הכחול הוא משולש _____ זוית
- המשולש האדום הוא משולש _____ זוית
- קווי המתאר החיצוניים של המשולשים יוצרים משולש _____ זוית

התבוננו במשולש שלפניכם:

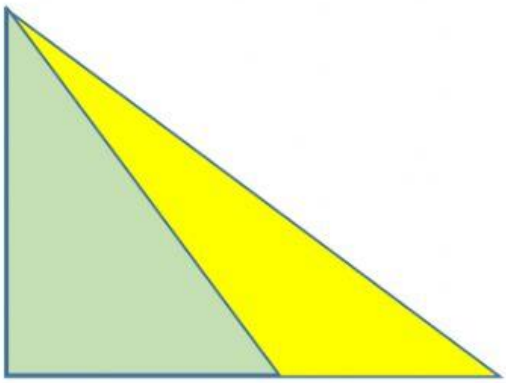

השלימו: קהה/ישר/חד

- המשולש הירוק הוא משולש _____ זוית

LIVEWORKSHEETS

- המשולש הצהוב הוא משולש _____ זוית
- קווי המתאר החיצוניים של המשולשים יוצרים משולש _____ זוית

התבוננו במשולש שלפניכם:

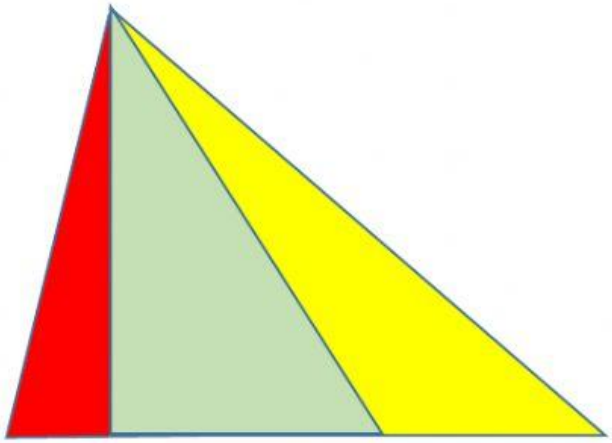

השלימו: קהה/ישר/חד

- המשולש האדום הוא משולש _____ זוית
- המשולש הירוק הוא משולש _____ זוית
- המשולש הצהוב הוא משולש _____ זוית
- קווי המתאר החיצוניים של המשולשים הירוק + אדום

  יוצרים משולש _____ זוית
- קווי המתאר החיצוניים של המשולשים הירוק + צהוב

  יוצרים משולש _____ זוית
- קווי המתאר החיצוניים של המשולשים יוצרים משולש _____ זוית

LIVEWORKSHEETS