LICEO HUELLAS DE TRIUNFO
MATEMÁTICAS
RECUPERACIÓN IV PERIODO
GRADO QUINTO

1. Escribe la fracción que representa cada figura y cómo se lee cada una.





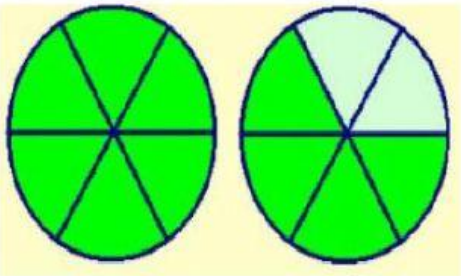

2. Escribe las clases de fracciones que hay:

_____

LIVEWORKSHEETS

3. Escribe donde corresponde tres fracciones propias y tres impropias.

FRACCIONES PROPIAS	FRACCIONES IMPROPIAS

4. Ubica cada fracción en cada recta numérica:

$\frac{7}{9}$



$\frac{5}{4}$

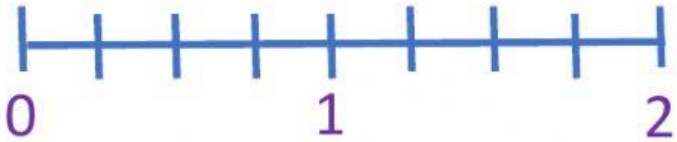

$\frac{5}{6}$

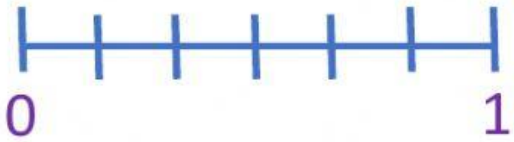

LIVEWORKSHEETS

5. Escribe como fracción o como número mixto según corresponda:

a. $\frac{10}{6}$ =

b. $4\frac{5}{3}$ =

c. $6\frac{2}{4}$ =

d. $\frac{19}{8}$ =

6. Marca SI, si cada una de las siguientes parejas de fracciones son equivalentes o NO si es lo contrario.

$\frac{2}{3}$ y $\frac{4}{6}$ **SI** **NO**

$\frac{4}{8}$ Y $\frac{3}{4}$ **SI** **NO**

$\frac{2}{7}$ Y $\frac{8}{28}$ **SI** **NO**

$\frac{5}{8}$ Y $\frac{4}{3}$ **SI** **NO**

LIVEWORKSHEETS

7. Amplifica las siguientes fracciones, y escribe el número que escogiste:

Fracción	Número escogido
$\frac{6}{4}$ = ____	
$\frac{7}{10}$ = _____	
$\frac{5}{3}$ = _____	

8. Simplifica las siguientes fracciones:

a. $\frac{45}{12}$ = ____ = _____ = _____

b. $\frac{28}{35}$ = ____ = _____

c. $\frac{16}{10}$= ____ =____ = _____

LIVEWORKSHEETS

9. Halla la fracción de cada número:

a. $\frac{3}{8}$ de 40 =

b. $\frac{6}{3}$ de 90 =

c. $\frac{2}{6}$ de 48 =

10. Realiza las siguientes sumas y restas de fracciones:

a. $\frac{9}{10} + \frac{6}{10}$ = ____

b. $\frac{19}{6} - \frac{6}{6}$ = ____

c. $\frac{4}{5} - \frac{3}{6}$ = ____

d. $\frac{10}{4} + \frac{8}{7}$ = ____

11. Realiza las siguientes multiplicaciones y divisiones de fracciones:

a. $\frac{12}{9} \times \frac{3}{2}$ = ____

b. $\frac{8}{9} \times \frac{2}{5}$ = ____

c. $\frac{6}{7} / \frac{8}{7}$ = ___

d. $\frac{8}{3} / \frac{9}{2}$ = ____

LIVEWORKSHEETS

12. Realiza las siguientes operaciones de números naturales:

$$\begin{array}{r} 652.681 \\ +\ 58.475 \\ \hline \end{array}$$

$$\begin{array}{r} 456.269 \\ -\ 25.268 \\ \hline \end{array}$$

$$\begin{array}{r} 78.954 \\ \times\ 245 \\ \hline \end{array}$$

$$45.251 \,\big|\, 97$$

LIVEWORKSHEETS