MATEMATIK TAHUN 1
PENILAIAN AKHIR TAHUN

BAHAGIAN A

Tulis nombor yang tertinggal.

1. 2 3 ___ ___ ___ 7

2. 30 ___ 32 ___ 34 ___

3. ___ 18 ___ 16 ___ 14

4. Pilih nombor yang lebih besar.

8 1 25 55 16 26

5. Pilih nombor yang lebih kecil.

6 9 81 18 12 17

6. Pilih warna yang betul bagi wang kertas berikut.

merah ◯
biru ◯

hijau ◯
oren ◯

merah ◯
ungu ◯

LIVEWORKSHEETS

7. Pilih gambar yang menunjukkan duit syling Malaysia.

8. Pilih aktiviti yang dilakukan pada siang hari.

9. Lengkapkan nama hari yang tertinggal.

Ahad				Khamis

10. Pilih petak yang menunjukan urutan bulan yang betul.

Januari Mac November	Jun Julai Ogos	Disember Februari April	Mac April Mei	September Oktober November

Pilih jawapan yang betul.

11.  Apakah pecahan bagi rajah ? A. suku B. setengah	12. Apakah pecahan bagi rajah ? A. suku B. setengah

LIVEWORKSHEETS

13. A. pukul satu B. pukul sebelas suku	14. A. pukul sembilan setengah B. pukul enam
15. Namakan hari selepas hari Jumaat ? A. Selasa B. Sabtu	16. Sebelum hari Khamis hari _____? A. Rabu B. Jumaat
17.  A. 90 B 40	18.  A. 48 B. 84
19. A. tiga puluh satu B. tiga belas	20. A. Enam B. Enam puluh

BAHAGIAN B

21. Nyatakan nilai tempat bagi digit yang bergaris. sa puluh **3**4 = _____ 5**7** = _____	22. Tuliskan nilai digit bagi digit yang bergaris.. contoh : **6**5 = 60 **8**9 = _____ 7**3** = _____

LIVEWORKSHEETS

23. Tulis nombor berikut dalam perkataan.

5 = _____

1 = _____

24. Tulis nombor.

Sebelas = _____

Duapuluh = _____

25. Kirakan jumlah

4 + 5 = _____

7 + 3 = _____

8 + 8 = _____

3 + 9 = _____

26. Berapa baki.

9 - 8 = _____

7 - 7 = _____

18 - 8 = _____

13 – 9 = _____

27. Wafi ada **RM5.** Dia beli sebuah buku yang berharga **RM3.** Berapakah baki wang Wafi ?

Jawapan : _____

28. Ariqa ada wang **50 sen**. Ibunya bagi **10 sen**. Berapakah wang yang Ariqa ada ?

Jawapan : _____

29. Tuliskan ciri-ciri wang dibawah :

Warna : _____

Nilai : _____

Warna : _____

Nilai : _____

30

Gerabak paling panjang ☐

Gerabak paling pendek ☐

Gerabak yang paling jauh dengan kepala kereta api ☐

Gerabak yang paling dekat dengan kepala kereta api ☐

LIVEWORKSHEETS