5. Atlik veiksmus: iš kiekvienos kortelės didžiausio skaičiaus atimk mažiausią skaičių.

594	196	350	800
262	201	625	541
362	734	349	451

6. Aukštadvario regioniniame parke aprašytos 764 aukštesniųjų augalų rūšys, iš jų 54 įrašytos į Lietuvos raudonąją knygą. Kiek augalų rūšių nėra įrašyta į Lietuvos raudonąją knygą?

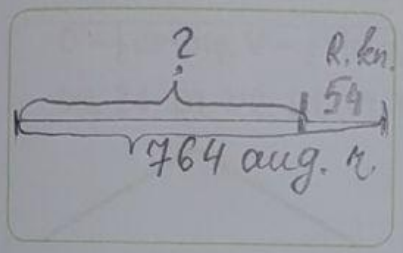

7. Žemaitijos nacionaliniame parke rasta 780 žiedinių augalų rūšių, o samanų – 561 rūšimi mažiau. Kiek iš viso šių augalų rūšių rasta Žemaitijos nacionaliniame parke?

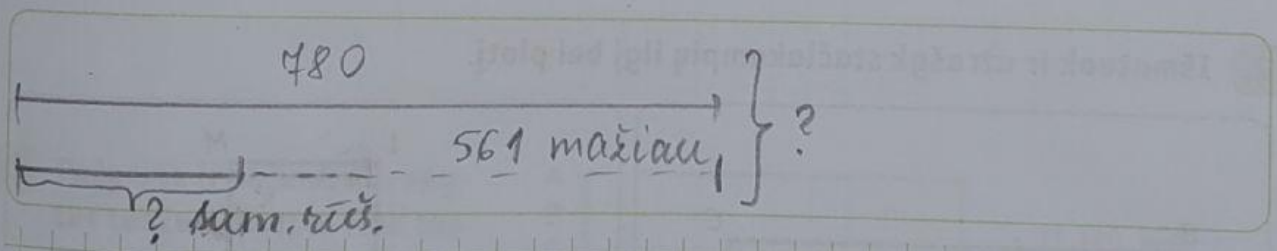

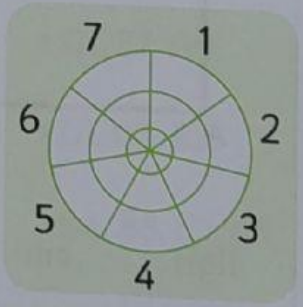

LIVEWORKSHEETS