แบบฝึกหัด

ชื่อ.....เลขที่.....

1. เขียนทศนิยมแสดงส่วนที่ที่ระบายสี และอ่านทศนิยม

Ex

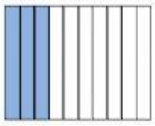

.....0.3.....

อ่านว่า ศูนย์จุดสาม

2)

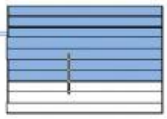

.....

อ่านว่า ศูนย์จุดเจ็ด

3)

.....

อ่านว่า ศูนย์จุดเก้า

4)

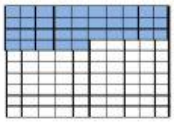

.....

อ่านว่า ศูนย์จุดสามห้า

5)



.....

อ่านว่า ศูนย์จุดหกห้า

6)



.....

อ่านว่า ศูนย์จุดแปดสอง

LIVEWORKSHEETS