MATEMÁTICAS 1

1. **Soluciona los siguientes problemas**

1. Hay 24 lápices en una caja. La fábrica produce 4289 cajas al día. ¿Cuántos lápices produce en total en un día?



Respuesta: La fábrica en total produce en un día _____ lápices

Hay 56 colores y debo repartirlos entre 8 niños ¿cuántos colores le corresponden a cada uno?



Respuesta: A cada niño le corresponden _____ lápices de colores

2. **Observa atentamente cada cuadro y responde**

¿Cuántos dulces deben ir en cada bolsa?

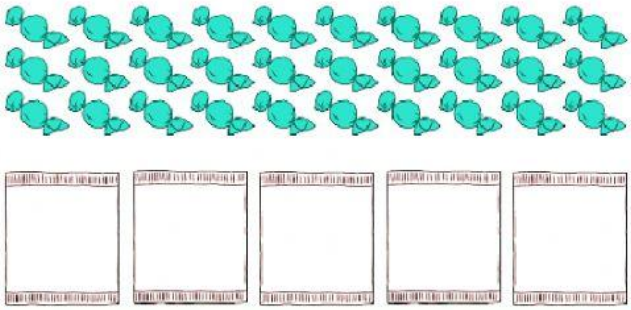

_____

LIVEWORKSHEETS

¿Cuántos personas deben ir en cada bus?



_____

¿Cuántos balones le corresponden a cada jugador ?

_____

3. **Completa el residuo de las siguientes divisiones**

20 ÷ 6 = ( ) 3	23 ÷ 9 = ( ) 2	22 ÷ 3 = ( ) 7
18 ÷ 4 = ( ) 4	46 ÷ 5 = ( ) 9	15 ÷ 2 = ( ) 7

LIVEWORKSHEETS

4. **Resuelve las siguientes divisiones**

823 | 2

324 | 2

177 | 5

5. **Resuelve las siguientes multiplicaciones**

$$\begin{array}{r} 5.874 \\ \times\ 29 \\ \hline \\ \\ \hline \end{array}$$

$$\begin{array}{r} 4.627 \\ \times\ 21 \\ \hline \\ \\ \hline \end{array}$$

LIVEWORKSHEETS