ÁNGULOS

1. ***Pon el nombre a los siguientes ángulos:***

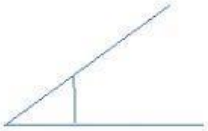	
	

2. ***Completa***

Un ángulo esta formado por un _____ y dos _____.

Para medir los ángulos usamos el _____.

Un ángulo recto mide _____ grados

Un ángulo llano mide _____ grados

Un ángulo obtuso mide _____ de 90 grados

LIVEWORKSHEETS