اسم الطالبة :.....

الصف : ا ف .....

من اختبارات التيمز

أنشطة إثرائية في مادة الرياضيات للصف السابع
استعدادا للاختبار TIMSS 2023
الفصل الدراسي الأول

الصف السابع

math
الرياضيات

اختر الإجابة الصحيحة

٣٣

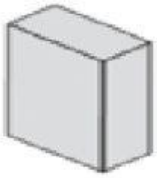

يبين الرسم صندوقًا متوازي المستطيلات.
أي شكل يمكن ثنيه ليكون الصندوق متوازي المستطيلات؟

أ



ب

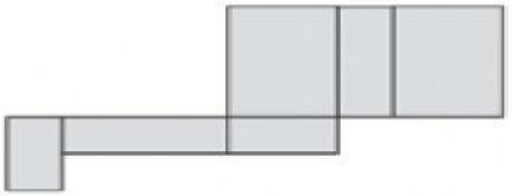

ج

د

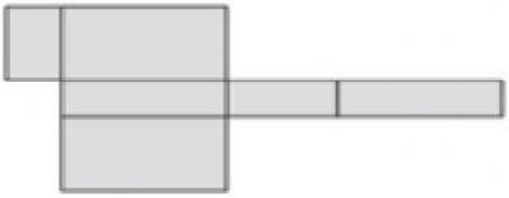

LIVEWORKSHEETS