División

1. Resuelve los siguientes ejercicios.

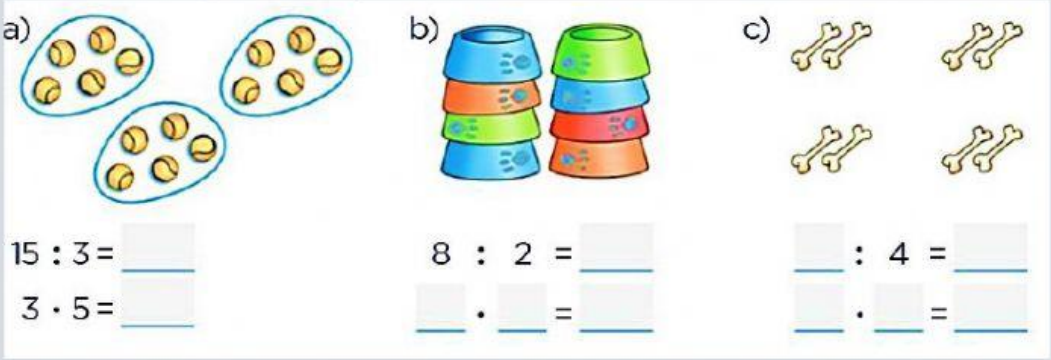

2. Halla el cociente en la división.

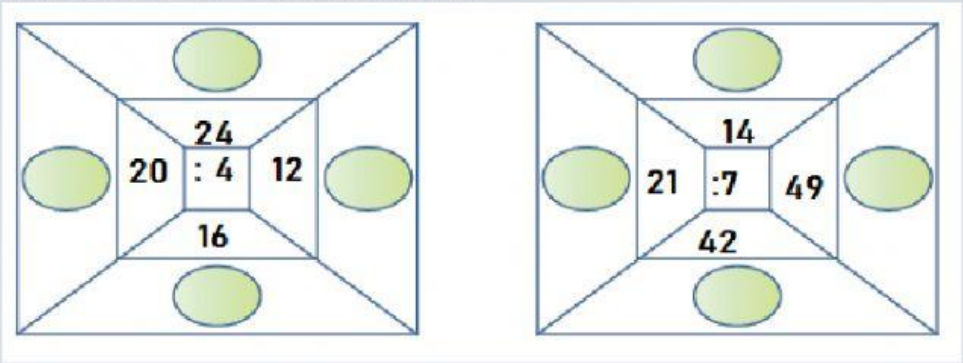

3. Completa con y sin resto

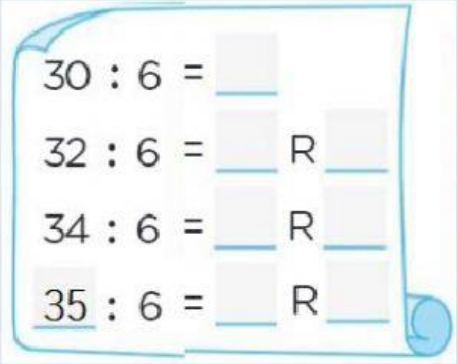

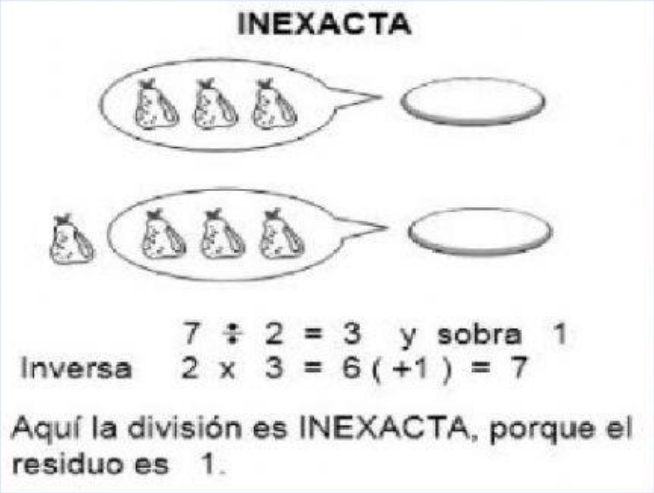

4. Divisiones inexactas
   a. 23 : 4 = R
   b. 15 :7 = R
   c. 38 : 6 = R
   d. 50 : 7 = R

LIVEWORKSHEETS

5. Lee y resuelve las situaciones problemáticas.

a. Si tengo 18 globos y 5 niños ¿Cuántos globos tocaría a cada niño?

18 : 5 = R

Respuesta: A cada niño le tocaría globos y le quedaría globos.

b. En la clase de Ciencia y Tecnología, Benjamín debe repartir 20 lupas entre los 4 equipos de trabajo. ¿Cuántas lupas le tocará a cada equipo?

20 : 4 =

Respuestas: A cada equipo le tocaría lupas.

LIVEWORKSHEETS