EXAMEN

Trimestre 1

1er. grado

Ciclo Escolar 2021-2022

Nombre del/de la alumno/alumna:

Nombre de la escuela primaria: Gerardo Gómez Castillo

Grado y grupo:

MATEMÁTICAS

LIVEWORKSHEETS

MATEMÁTICAS

1-3.-Escribe la cantidad de pastelitos que tiene cada niño.

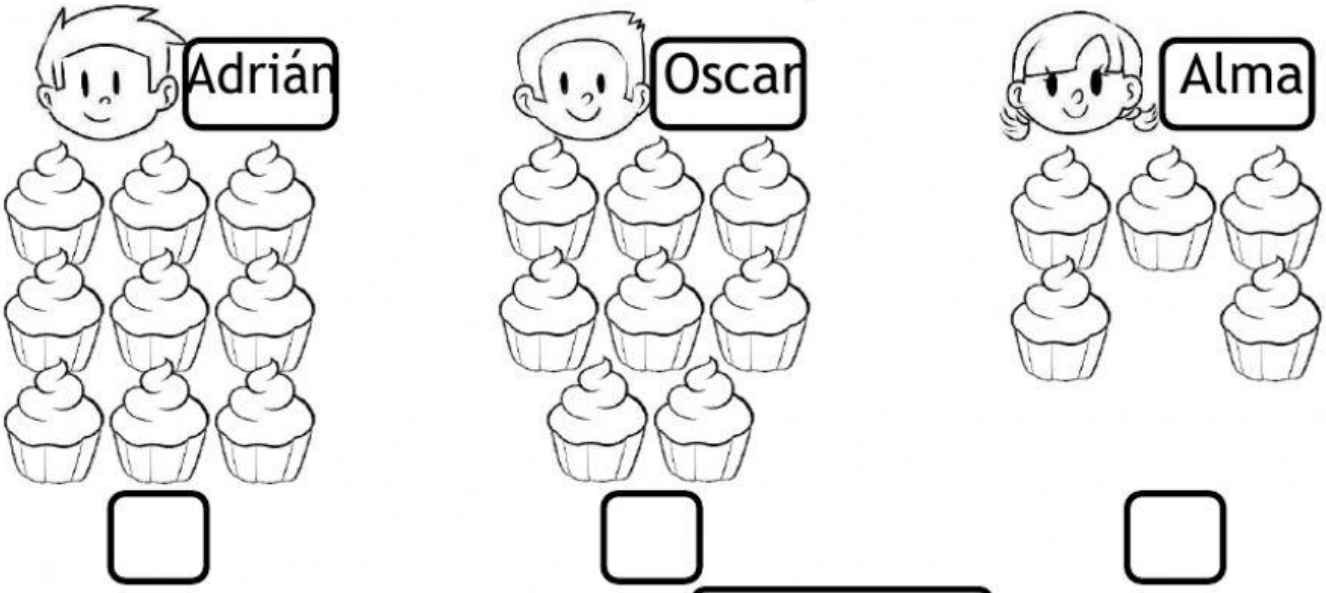

4.-¿Quién tiene más pastelitos?

5.-¿Quién tiene menos pastelitos?

6-7.-Elige las colecciones que tienen la misma cantidad.



8-10.-Escribe el número anterior y sucesor en cada caso.

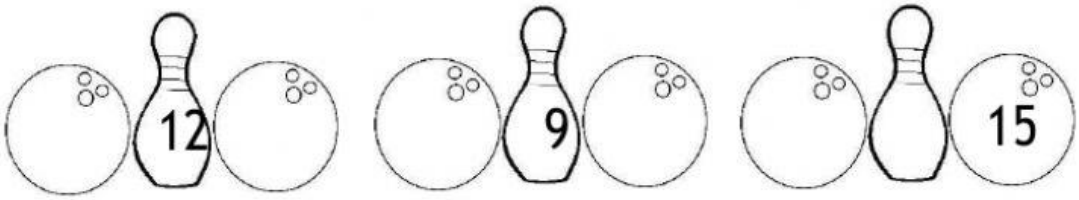

LIVEWORKSHEETS

11-13.-Une los números que al sumarlos formen el número 10.



14.-Cuenta la siguiente colección y escribe el total.

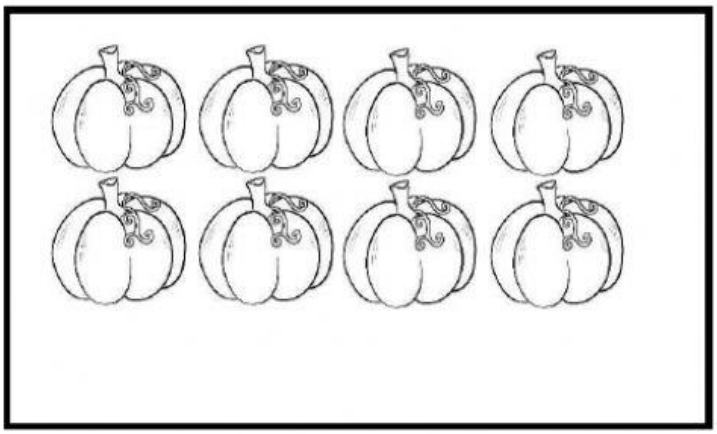

Son ☐ calabazas

15.-Si Perla agregó 4 calabazas ¿Cuántas calabazas serán?

☐

16-17.-En el cuadro anota el total de puntos que hay en los siguientes dados.

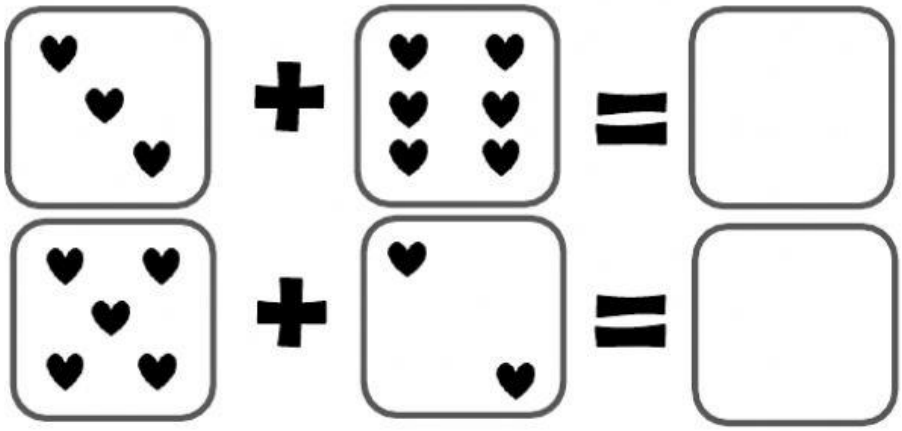

LIVEWORKSHEETS

18.-19.-Colorea las monedas para comprar los siguientes dulces.

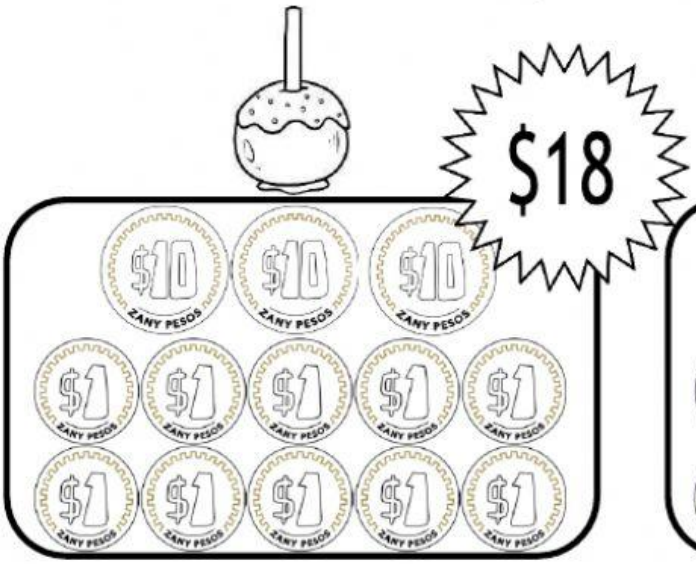



20-24.-En la tabla registra los panes anotando una raya y escribe el total.

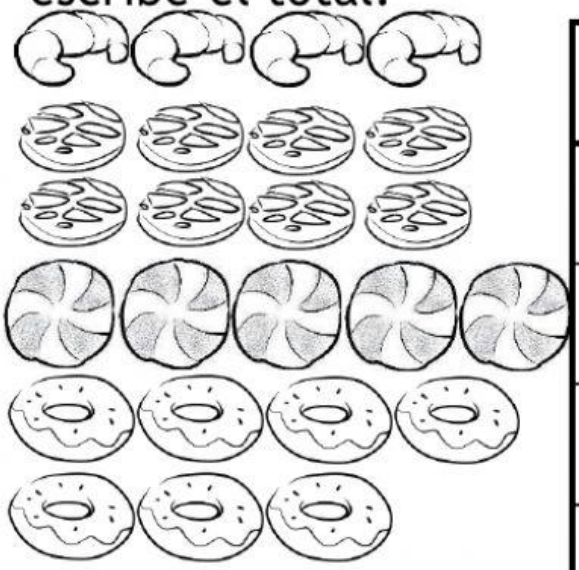

Pan	Registro	total
		

25.-Marca Una línea para formar 2 figUras geométricas

LIVEWORKSHEETS

18

LIVEWORKSHEETS