LATIHAN SOAL

BAB 2 DASAR- DASAR PEMETAAN, PENGINDERAAN JAUH DAN SISTEM INFORMASI GEOGRAFI

1. SEBUTKAN KOMPONEN PETA BERIKUT INI

ARAH ORIENTASI

SUMBER & TH PEMBUATAN

SKALA PETA

JUDUL

INSET

GARIS ASTRONOMIS

2. SEBUTKAN KOMPONEN PENGINDERAAN JAUH BERIKUT INI

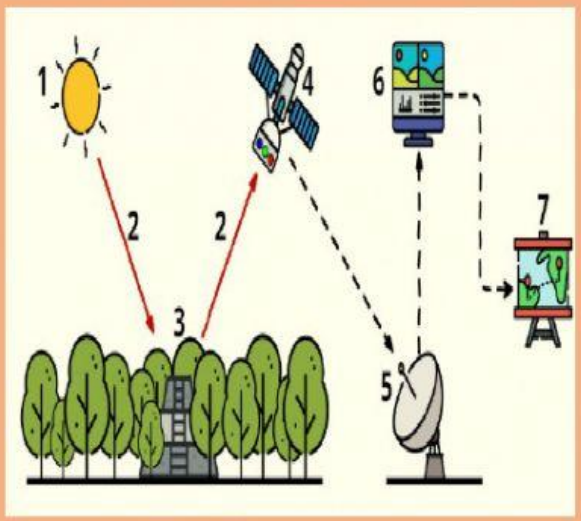

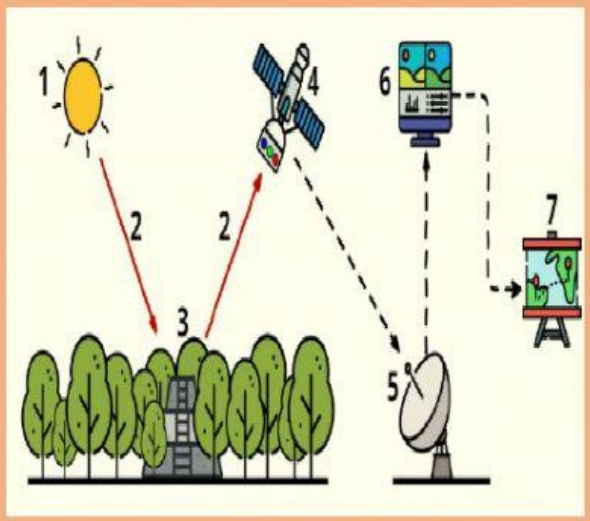

KOMPONEN NO 1 DISEBUT .....

KOMPONEN NO 4 DISEBUT ....

LIVEWORKSHEETS

3. SEBUTKAN KOMPONEN SISTEM INFORMASI GEOGRAFIS BERIKUT INI



4. SKALA PETA BERIKUT INI YANG TERMASUK KATEGORI SKALA BESAR ADALAH ....

A. 1 : 5000 – 1 : 1.250.000

B. 1 : 250.000 – 1 : 1.150.000

C. 1 : 500,000 – 1 : 1.000.000

D. 1 : 1.000.000 – 1 : 2.000.000

E. > 1 : 1.000.000

LIVEWORKSHEETS

5. HASIL KELUARAN PENGINDERAAN JAUHG ADALAH ....
   A. PIKSEL
   B. SENSOR
   C. CITRA
   D. BAYANGAN
   E. SITUS
6. SIMBOL SUNGAI PADA PETA BIASANYA DIGUNAKAN WARNA .....
   A. MERAH
   B. KUNING
   C. HIJAU
   D. HITAM
   E. BIRU
7. KOMPONEN PETA YANG MENCIRIKAN ISI DARI PETA ADALAH .....
   A. JUDUL PETA
   B. SKALA PETA
   C. LEGENDA
   D. INSET PETA
   E. SIMBOL PETA
8. PETA GEOLOGI MERUPAKAN SALAH SATU SUMBER DATA SIG DAN TERMASUK KE DALAM ....
   A. DATA PRIMER
   B. DATA LAPANGAN
   C. DATA CITRA
   D. DATA TEMATIK
   E. DATA TERSIER
9. BENTUK ANALISIS DATA DALAM SIG ADALAH TEKNIK TUMPANG SUSUN PETA ATAU YANG DISEBUT DENGAN TEKNIK .....
   A. OVERLAY PETA
   B. BUFFERING PETA
   C. SKORING PETA
   D. LABELING PETA
   E. EDITING PETA

LIVEWORKSHEETS

10. BERIKUT INI YANG TERMASUK MANFAAT CITRA PENGINDERAAN JAUH DALAM KAJIAN HIDROSFER ADALAH ...

A. PENYELIDIKAN TEMPERATUR LAUT

B. ANALISIS GELOMBANG LAUT

C. PERSEBARAN VEGETASI

D. ANALISIS KEDALAMAN LAUT

E. MENELITI PASANG AIR LAUT

SELAMAT MENGERJAKAN

LIVEWORKSHEETS