## 3_ ARRASTE OS RESULTADOS ATÉ A OPERAÇÃO:




## 4_ LEIA E RESOLVA OS PROBLEMAS.DEPOIS CLIQUE NO RESULTADO:

SE UM CAVALO TEM 4 PATAS, QUANTAS PATAS TEM 6 CAVALOS?

10 15 24 35

NA FAZENDA TEM 5 GALINHAS, CADA UMA COM 5 PINTINHOS. QUANTOS PINTINHOS TEM NA FAZENDA?



7 11 15 25

ANNA COLOCOU 3 BOMBONS EM CADA SAQUINHO. QUANTOS BOMBONS TEM NOS 4 SAQUINHOS?

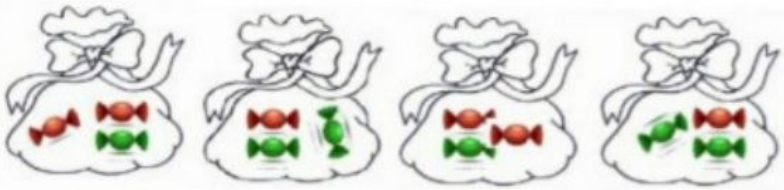

6 12 18 32

LIVEWORKSHEETS