٣ - ٧ المضلعات المتشابهة

المثلثان المرسومان في الشكل أدناه متشابهان . ( )

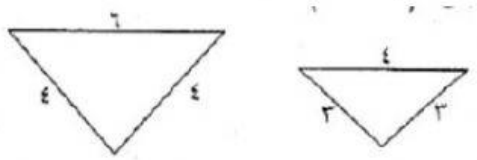

في الشكل المجاور ، △أ ب جـ ~ △ د هـ و ، فإن : ق ∠ د يساوي

(أ) ٣٨ (ب) ٦٢ (جـ) ٦٨ (د) ١٠٠

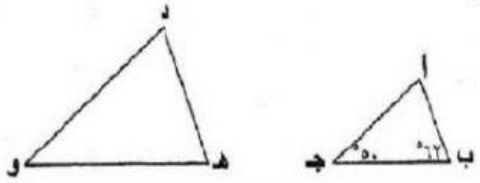

في الشكل المجاور ، △س ص ع ~ △ ل ك م ،

فإن : ق ∠ ل يساوي :

(أ) ٤٢ (ب) ٦٠

(جـ) ١٠٢ (د) ٧٨

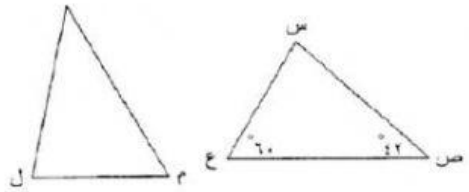

في الشكل المجاور إذا كان المضلعان متشابهان

فإن قيمة س = ...

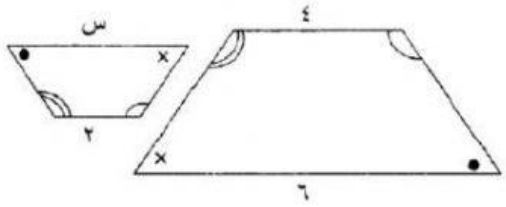

إذا كان △ أ ب جـ ~ △ س ص ع ، فأوجد س ع

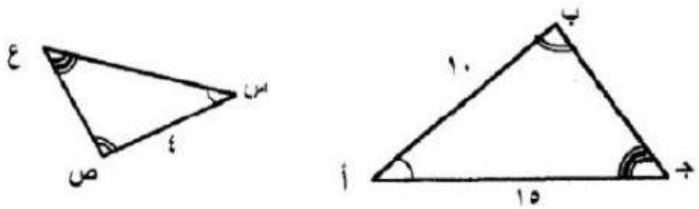

أذا كان △ أ ب جـ ~ △ ن و هـ كما هو موضح في الشكل المجاور فأوجد :

أ) ق∠ و

ب) محيط △ ن هـ و

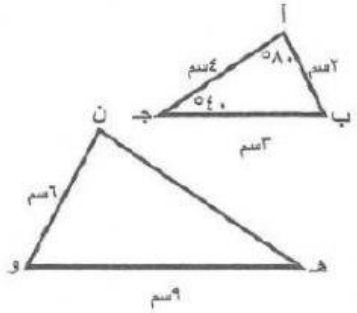

LIVEWORKSHEETS

إذا كان △ م ل ن ~ △ هـ ب ي

فأوجد قيمة س

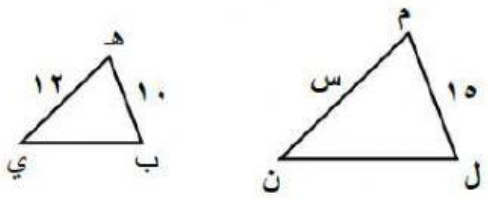

في الرسم المجاور إذا كان المضلعان متشابهان،

فأوجد قيمة س

الحل:

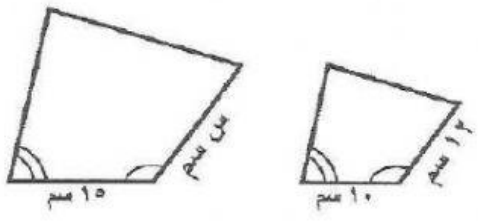

في الشكل المجاور، إذا كان المثلثان متشابهان.

أوجد قيمة ل

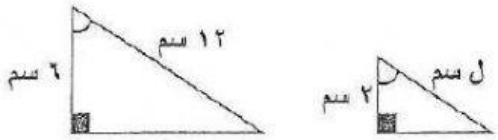

في الشكل المرسوم جانبا أوجد طول القطعة $\overline{جـ د}$

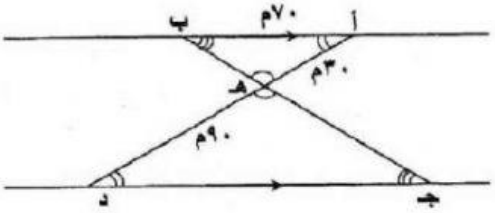

△ ل م ن ~ △ ب س ر

فإذا كان محيط △ ل م ن = ٦٤ وحدة

فأوجد محيط △ ب س ر

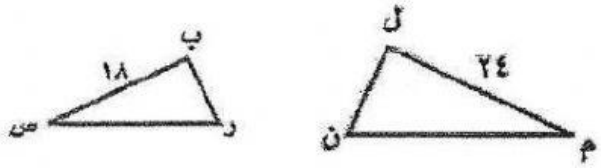

في الشكل المجاور، إذا كان المثلثان متشابهان.

أوجد قيمة ك

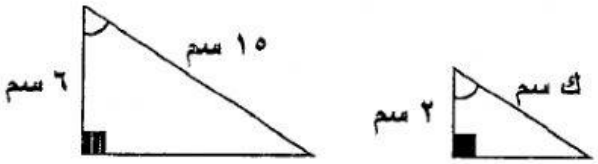

LIVEWORKSHEETS