7.COUNTING THE GEOMETRICAL FIGURES

41. எத்தனை சரிவகங்கள் இப்படத்தில் உள்ளன ?

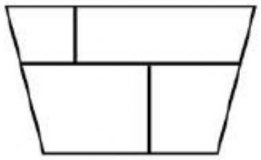

1) 7
2) 6
3) 5
4) 4

42. எத்தனை இணைகரங்கள் இப்படத்தில் உள்ளன?

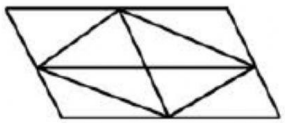

1) 11
2) 8
3) 9
4) 10

43. எத்தனை அரைவட்டங்கள் இப்படத்தில் உள்ளன?

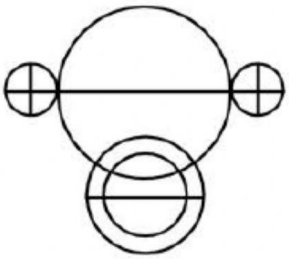

1) 11
2) 12
3) 13
4) 14

44. எத்தனை முக்கோணங்கள் இப்படத்தில் உள்ளன?



1) 10
2) 11
3) 12
4) 8

45. எத்தனை முக்கோணங்கள், சதுரங்கள் இப்படத்தில் உள்ளன?

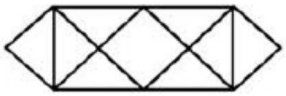

1) 12, 3
2) 14, 4
3) 14, 3
4) 12, 4

46. எத்தனை முக்கோணங்கள் இப்படத்தில் உள்ளன?

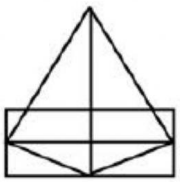

1) 10
2) 17
3) 12
4) 15

LIVEWORKSHEETS

47. எத்தனை முக்கோணங்கள் இப்படத்தில் உள்ளன?

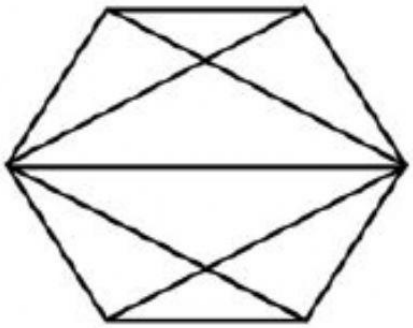

1) 10
2) 12
3) 16
4) 15

48. எத்தனை முக்கோணங்கள் இப்படத்தில் உள்ளன?

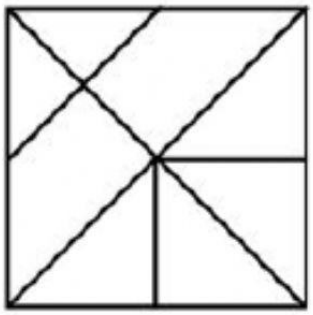

1) 11
2) 12
3) 15
4) 16

49. எத்தனை முக்கோணங்கள் இப்படத்தில் உள்ளன?

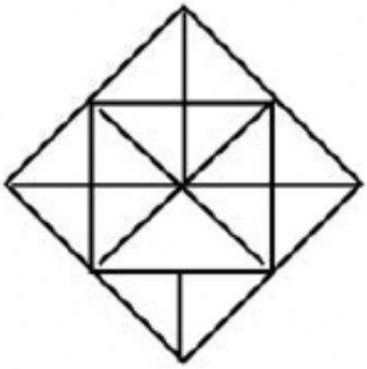

1) 32
2) 37
3) 34
4) 30

50. எத்தனை முக்கோணங்கள் இப்படத்தில் உள்ளன?

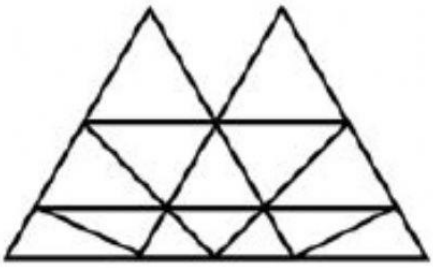

1) 20
2) 22
3) 21
4) 18

LIVEWORKSHEETS