Examen 2 parcial

Alumno: _____

Grupo:_____

Instrucciones: Lee con atención lo que se te solicita.

1.Completa en la tabla, familia, grupo, periodo, bloques, nombre de la familia, para colocar el número de la familia sigue el ejemplo de la IA

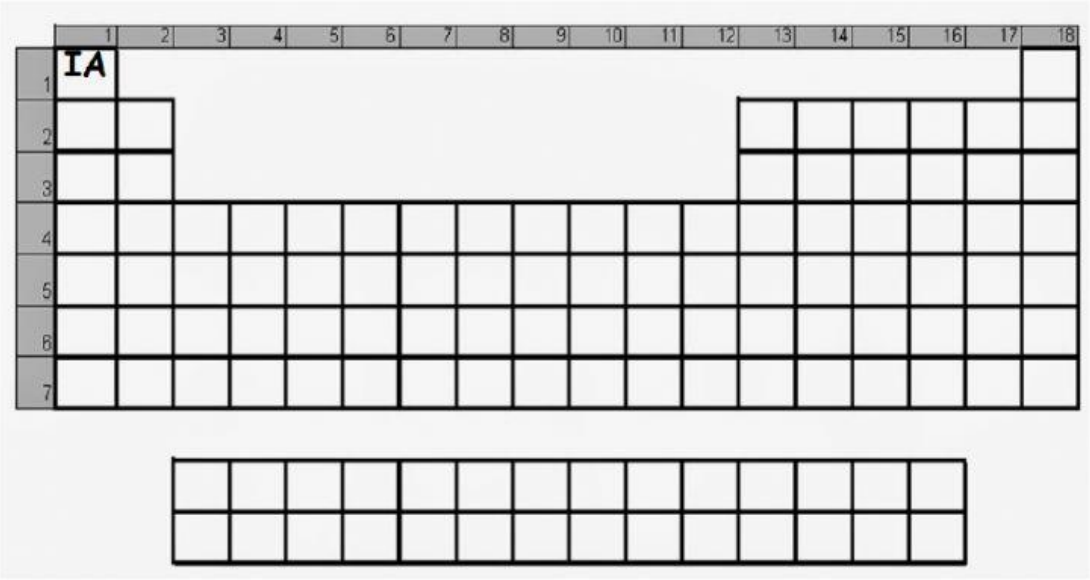

Nombre de cada familia.

IA
IIA
III A
IVA
VA
VIA
VIIA
VIIIA

Familia A tiene grupos

Familia B tiene grupos

Escribe los elementos no metálicos.

LIVEWORKSHEETS

Completa la siguiente tabla determina A, Z ,p+, e-, n+- y e con carga

NOMBRE	SIMBOLO	A	Z	p+	e-	n+-	Carga	e-carga
Cloro					17		-1	
Radio			88				+2	
	Pd						+2	
Cromo							+3	
Azufre				33			-2	

Configuración electrónica

Completa lo que te solicita, sigue el ejemplo en los spines coloca flechas

Al 3p1
z= 13

1s2
2s2 2p6
3s2 3p1



2e- 8e- 3e-

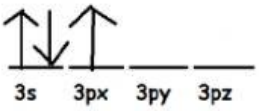

3s 3px 3py 3pz

Fe

z=

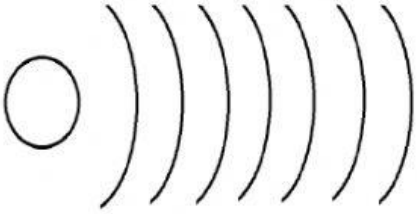

Ar

z=

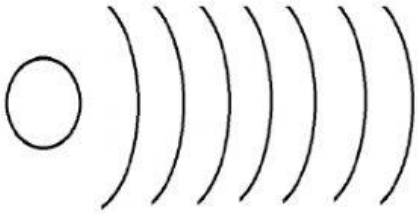

Sr

z=

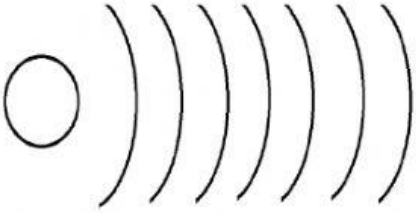

LIVEWORKSHEETS