Activitat 1: Juguem a cartes!

La Júlia i en Marc són companys de classe. Avui a la tarda juguen a cartes amb nombres i després van a la biblioteca.

Tots dos juguen a fer parelles de cartes i formen aquests nombres de dues xifres:



1.1 A quina d'aquestes sèries els nombres s'han ordenat del més petit al més gran?

- [ ] 23, 36, 71, 82
- [ ] 23, 36, 82, 71
- [ ] 36, 23, 71, 82
- [ ] 82, 71, 36, 23

0-1

1.2 En Marc escull 4 cartes i escriu el nombre de 4 xifres que es pot expressar així: 3.000 + 600 + 70 + 1. Quin és aquest nombre?

- [ ] 3.167
- [ ] 3.617
- [ ] 3.671
- [ ] 3.716

0-1

LIVEWORKSHEETS

Activitat 1: Juguem a cartes!

1.3 **La Júlia té 4 cartes:**

La Júlia escull 3 d'aquestes cartes per formar el nombre de 3 xifres més petit possible. Quin és aquest nombre?
Escriu-lo aquí:

0-1

1.4 **En Marc ha escrit aquestes quatre frases. Marca amb una X si les frases següents són verdaderes o falses:**

	Verdadera	Falsa
La meitat de 4 és 2.		
El doble de 12 és 6.		
El triple de 4 és 12.		
La meitat de 3 és 6.		

0-1-2

LIVEWORKSHEETS

Activitat 1: Juguem a cartes!

1.5 **En Marc i la Júlia volen saber quantes cartes tenen entre tots dos. Observa el que diuen:**



És cert que entre tots dos tenen 9 cartes?

☐ Sí

☐ No

Explica com ho has resolt.

.....

.....

.....

0-1-2

1.6 **La Júlia gira les cartes i observa que cadascuna té una figura geomètrica. Quina carta té dibuixat un rectangle?**

☐ ☐ ☐ ☐

0-1

LIVEWORKSHEETS

Activitat 1: Juguem a cartes!

1.7 **Amb les cartes, en Marc fa la sèrie següent:**

Quina carta continuarà la sèrie?

☐

☐

☐

☐

0-1

1.8 **La Júlia fa servir la taula següent per descriure figures.**
Marca amb una X si les expressions són verdaderes o falses.

	Verdadera	Falsa
Aquesta figura té quatre costats.		
Aquesta figura té dos vèrtexs.		
Aquesta figura té tots els seus angles rectes.		
Aquesta figura té tots els seus costats iguals.		

0-1-2

LIVEWORKSHEETS

Activitat 2: Anem a la biblioteca!

Al plànol s'ha marcat on es troben la biblioteca, la casa de la Júlia i la casa d'en Marc. La biblioteca és a la casella A6.

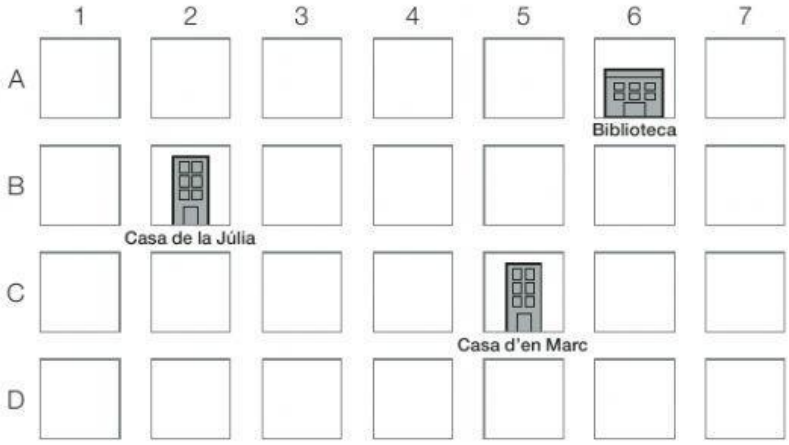

2.1 Quina casa està més a prop de la biblioteca, la casa d'en Marc o la de la Júlia?

- ☐ La d'en Marc.
- ☐ La de la Júlia.

Com ho saps? Fixa't en el plànol i després explica la teva resposta.

.....

.....

.....

0-1-2

2.2 A la biblioteca hi ha aquest cartell. Quin és l'horari de la biblioteca?

- ☐ De les 4 a les 6 de la tarda
- ☐ De les 5 a les 7 de la tarda
- ☐ De les 6 a les 8 de la tarda
- ☐ De les 7 a les 9 de la tarda

HORARI DE LA BIBLIOTECA
de dilluns a divendres
de 17.00 a 19.00 h

0-1

LIVEWORKSHEETS