Thứ Sáu, ngày 12 tháng 11 năm 2021

Toán

Góc nhọn, góc tù, góc bẹt



Tên:



Lớp:

LIVEWORKSHEETS

Bài 1: *Trong các góc sau đây, góc nào là: góc vuông, góc nhọn, góc tù, góc bẹt ?*

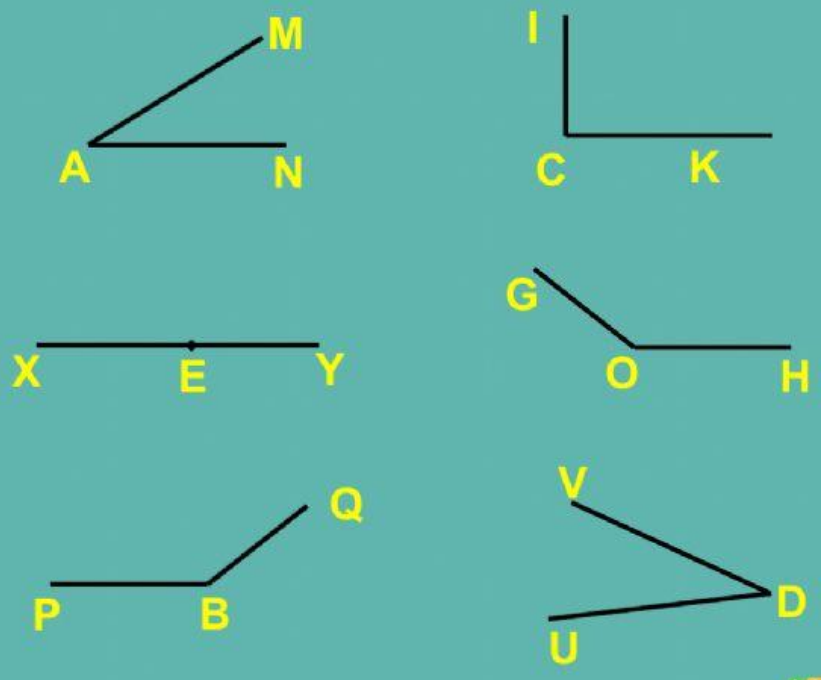

LIVEWORKSHEETS

Bài 2: ***Trong các hình tam giác sau:***

- Hình tam giác nào có ba góc nhọn?

- Hình tam giác nào có 1 góc vuông?

- Hình tam giác nào có 1 góc tù?

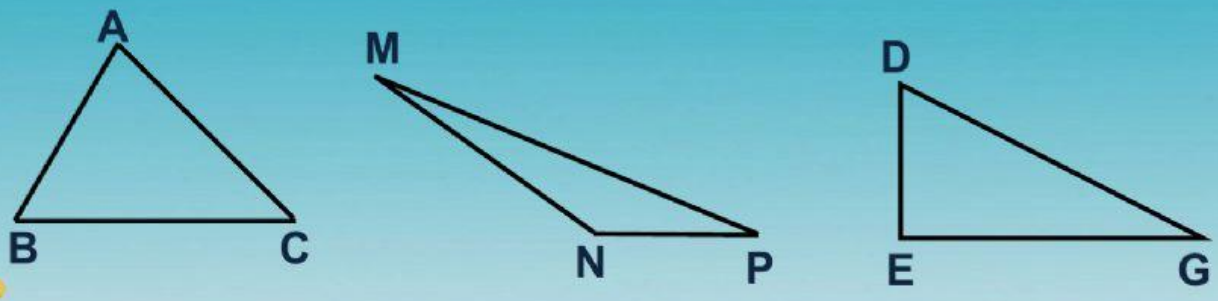

LIVEWORKSHEETS

Điền kết quả đúng (Đ), sai (S) vào mỗi ý sau:

1. Góc nhọn bé hơn góc vuông.
2. Góc vuông lớn hơn góc tù.
3. Góc bẹt bằng hai góc vuông
4. Góc tù lớn hơn góc nhọn.
5. Góc bẹt bằng góc tù.
6. Góc tù lớn hơn góc vuông.

LIVEWORKSHEETS