NAMA :

A. Gambar di bawah menunjukkan peringkat tumbesaran Humaira.

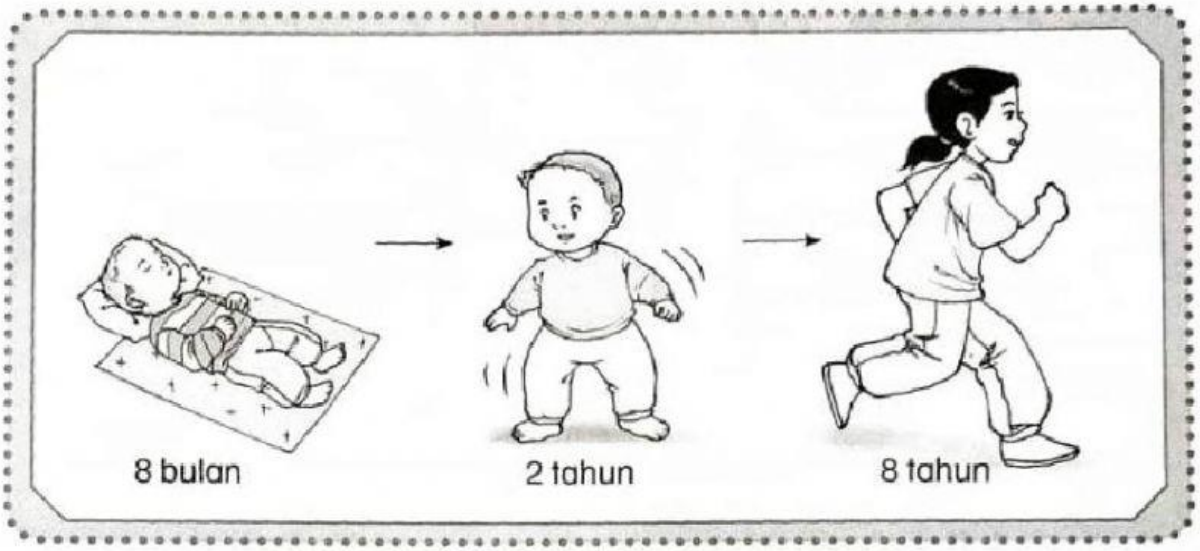

Tandakan (✓) pada perkara yang berlaku kepada Humaira semasa peringkat tumbesarannya.

1 Saiz badan Humaira semakin bertambah. ☐

2 Ketinggian Humaira semakin berkurang. ☐

3 Saiz kaki Humaira semakin mengecil. ☐

4 Berat badan Humaira semakin bertambah. ☐

5 Saiz baju yang dipakai oleh Humaira semakin besar. ☐

LIVEWORKSHEETS

B. Pilih jawapan yang betul berdasarkan gambar di bawah.

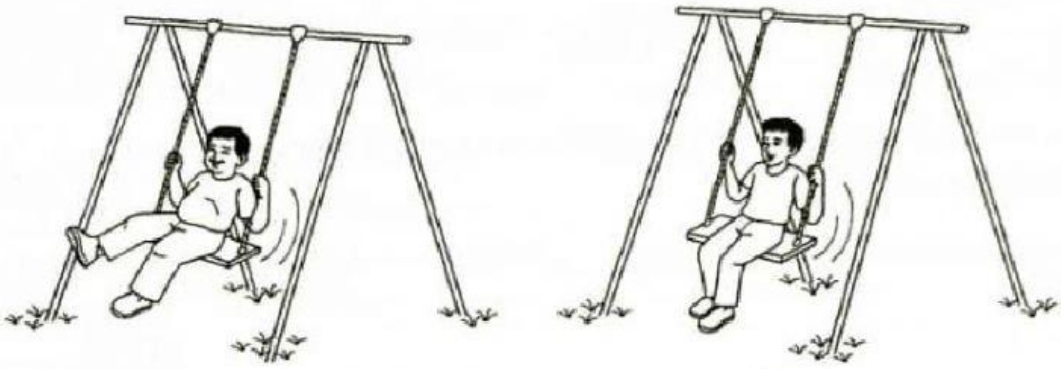

Ah Cai

Umur: 10 tahun
Berat: 56 kg
Tinggi: 153 cm
Saiz baju: L

Bala

Umur: 10 tahun
Berat: 48 kg
Tinggi: 155 cm
Saiz baju: S

1 Bala lebih (ringan, berat) daripada Ah Cai.

2 Ah Cai lebih (rendah, tinggi) daripada Bala.

3 Bala lebih (besar, kecil) daripada Ah Cai.

4 Tumbesaran Bala dan Ah Cai (sama, berbeza) walaupun usia mereka sama.

LIVEWORKSHEETS

C. Gambar di bawah menunjukkan Elly bersama ibu dan bapanya. Pilih jawapan yang betul.



1 Apakah ciri yang diwarisi oleh Elly daripada bapanya?

Bentuk wajah	Jenis rambut

2 Apakah ciri yang diwarisi oleh Elly daripada ibunya?

Bentuk telinga	Ketinggian

3 Apakah jenis rambut yang dimiliki oleh Elly dan bapanya?

Rambut lurus	Rambut ikal

LIVEWORKSHEETS