ESCOLA: _____
Prof.: _____
Nome: _____

| | | | | |
|---|---|---|---|---|
| 1 | A | B | C | D |
| 2 | A | B | C | D |
| 3 | A | B | C | D |
| 4 | A | B | C | D |
| 5 | A | B | C | D |
| 6 | A | B | C | D |
| 7 | A | B | C | D |
| 8 | A | B | C | D |
| 9 | A | B | C | D |
| 10 | A | B | C | D |
| 11 | A | B | C | D |
| 12 | A | B | C | D |

D2 **Questão 1**

**Observe os sólidos geométricos a seguir:**

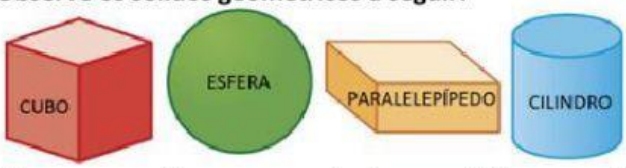


**Marque a opção correspondente aos sólidos que são semelhantes quanto ao número de faces.**

(A) Cubo e esfera

(B) Cubo e paralelepípedo

(C) Esfera e paralelepípedo

(D) Paralelepípedo e cilindro

D7 **Questão 2**

**A figura a seguir corresponde à distância aproximada que Ana viajou.**

**Essa viagem de Ana corresponde a**

(A) 170 metros.

(B) 1 700 metros.

(C) 17 000 metros.

(D) 170 000 metros.

D10 **Questão 3**

**Fernando tem, em sua carteira, cinco cédulas de R$ 5, oito de R$ 10, três de R$ 20 e uma de R$ 50. Ele quer trocar este valor pela menor quantidade de cédulas possíveis.**

**Assinale a opção que corresponde às cédulas que Fernando pode receber na troca de seu dinheiro de maneira que mantenha o valor que ele possui.**

(A)

(B)

(C)

(D)

D2 **Questão 4**

**Observe o poliedro a seguir:**

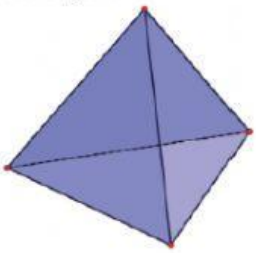



LIVEWORKSHEETS

**Nesse poliedro, as faces são**

(A) pontos.

(B) segmentos.

(C) triângulos.

(D) quadriláteros.

**D7 Questão 5**

**Paulo comprou copos descartáveis de 250 mililitros, para servir suco.**

**Quantos copos ele precisará para servir 2,5 litros de suco?**

(A) 10

(B) 25

(C) 100

(D) 250

**D21 Questão 6**

**A imagem a seguir ilustra um jogo do tipo dominó.**

| Alice | Bia | Cauã | Danilo |
|---|---|---|---|
| $\frac{10}{10}$ | 50% | 1% | $\frac{1}{100}$ |
| 25% | $\frac{10}{100}$ | $\frac{1}{2}$ | 20% |

**Para ganhar, qualquer um dos jogadores poderá atravessar a vez de seu adversário. Para isso, é preciso ter uma peça que seja equivalente à peça que está a seguir:**

| |
|---|
| 10% |
| 10% |

**Assinale a opção que corresponde ao jogador que poderá colocar a peça e ganhar o jogo.**

(A) Bia

(B) Cauã

(C) Alice

(D) Danilo

**D24 Questão 6**

**Observe a divisão a seguir:**

$$1 \div 4$$

**Assinale a opção correspondente à fração que representa essa divisão.**

(A) $\frac{4}{1}$ (B) $\frac{1}{3}$ (C) $\frac{1}{5}$ (D) $\frac{1}{4}$

**D7 Questão 8**

**Um restaurante oferece o açúcar em sachê de 4 gramas.**

**O valor correspondente, em miligramas, desse sachê é igual a**

(A) 4 000.

(B) 400.

(C) 40.

(D) 4.

**D24 Questão 9**

**Carla desenhou um retângulo e o dividiu em partes iguais. Em seguida ela pintou algumas partes desse retângulo, como mostra a figura a seguir:**



**Considerando a parte que Carla pintou, assinale a fração correspondente à figura desenhada.**

(A) $\frac{6}{9}$ (B) $\frac{3}{9}$ (C) $\frac{3}{6}$ (D) $\frac{9}{6}$

**D2 Questão 10**

**Observe a caixa a seguir:**

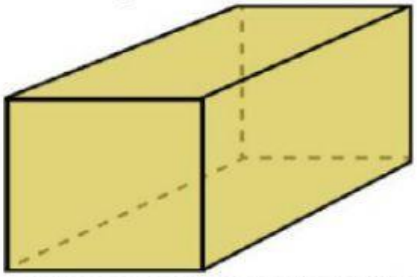

**Assinale a opção que corresponde à planificação desta caixa.**



LIVEWORKSHEETS

(A)

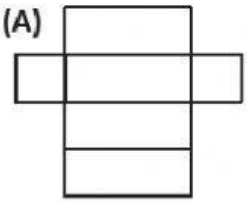

(B)

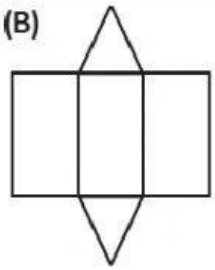

(C)

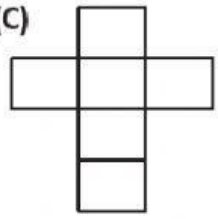

(D)

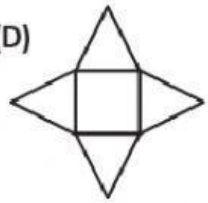

**D10 Questão 11**

**João pagou seu lanche, no valor de R$ 10, usando somente moedas de 25 centavos.**

**Assinale a opção correspondente à quantidade de moedas que João usou no pagamento desse lanche.**

(A) 50

(B) 40

(C) 25

(D) 10

**D21 Questão 12**

**A professora Ana escreveu no quadro a seguinte fração:**

$$\frac{5}{2}$$

**A representação decimal dessa fração é igual a**

(A) 5,2.

(B) 0,4.

(C) 2,0.

(D) 2,5.



LIVEWORKSHEETS