Maestra J. Citlalli

Escribe tu nombre: _____

Fecha: _____

- **Encuentra las siguientes palabras en la sopa de letras: matemáticas, denominador, numerador, fracciones, mixta, propias, impropias, equivalentes, sumas, restas.**

m	i	m	p	r	o	p	i	a	s	p	e
s	a	n	u	m	e	r	a	d	o	r	q
e	c	t	w	h	a	z	f	x	o	o	u
x	i	f	e	w	t	a	r	d	a	p	i
t	t	s	u	m	a	s	a	x	d	i	v
o	l	u	m	j	á	n	c	t	a	a	a
g	a	h	o	l	i	t	c	a	d	s	l
r	l	r	x	m	c	x	i	w	o	i	e
a	l	i	o	h	o	l	o	c	e	l	n
d	i	n	a	d	a	x	n	k	a	ñ	t
o	e	m	i	x	t	a	e	e	s	s	e
d	s	u	m	e	r	e	s	t	a	s	s

- **¿Qué es una fracción? Selecciona la respuesta correcta:**

Una fracción es la forma de expresar una cantidad dividida.
Una fracción es la forma de expresar una cantidad no dividida.

- **Completa las oraciones con la opción correcta:**

Una fracción expresa la _____ de un todo en partes; el _____ representa el divisor (o las partes en que se divide la unidad) y el _____, al dividendo (o las partes que se toman luego de dividirse la unidad). Por ejemplo, 1/2 representa una fracción, donde 1 es el _____ y 2 el _____.

- **Fracciones _____: el numerador es menor que el denominador.**
- **Fracciones _____: el numerador es mayor o igual que el denominador.**
- **Fracciones _____: constan de una parte entera y una parte fraccionaria.**

LIVEWORKSHEETS

- **Observa los gráficos, luego escribe la fracción que corresponde, selecciona si es mixta, propia, impropia y equivalente, luego escribe cómo se lee.**

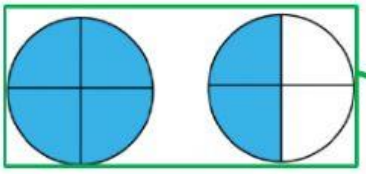

Tipo de fracción:

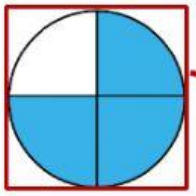

Tipo de fracción:

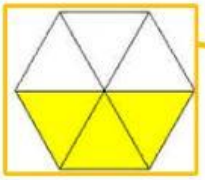

Tipo de fracción:

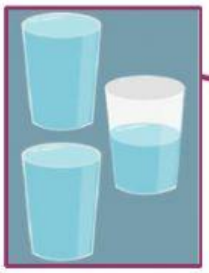

Tipo de fracción:

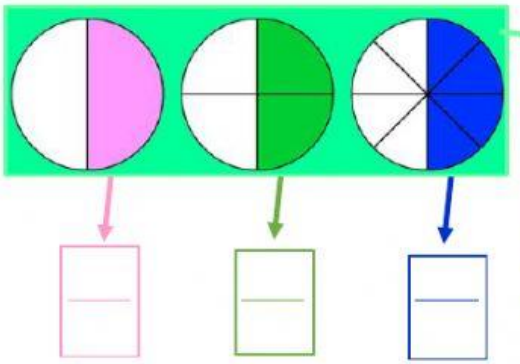

Tipo de fracción:

LIVEWORKSHEETS

- **Une cada fracción impropia con su número mixto.**

$\frac{30}{4}$	$2\frac{7}{9}$
$\frac{25}{9}$	$1\frac{5}{6}$
$\frac{23}{6}$	$3\frac{5}{6}$
$\frac{11}{6}$	$2\frac{1}{3}$
$\frac{7}{3}$	$7\frac{2}{4}$

- **Completa los números mixtos que se marcaron en la recta numérica.**

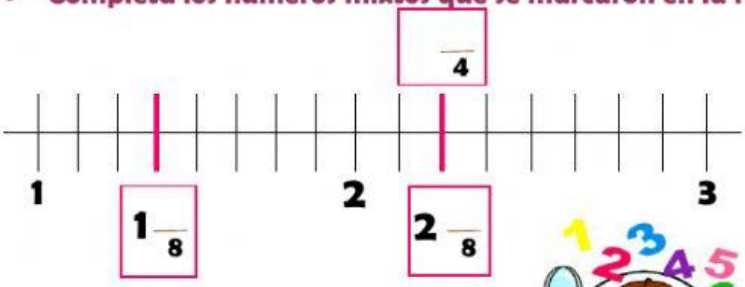

- **Escribe fracciones en forma numeral**

Dos décimos ___

Cinco doceavos ___

Cinco octavos ___

Un tercio ___

LIVEWORKSHEETS

- **Elige la opción correcta de la lectura**

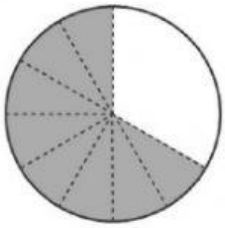

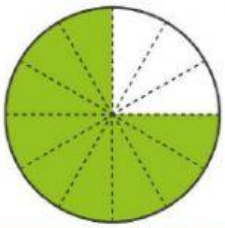

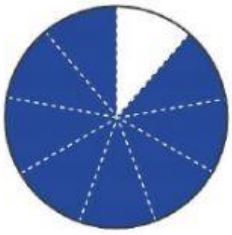

- **Selecciona las fracciones impropias**

$\frac{4}{6}$ $\frac{10}{5}$ $\frac{5}{3}$ $\frac{8}{10}$ $\frac{3}{2}$ $\frac{3}{4}$ $\frac{6}{4}$

- **Coloca cada fracción con su respectivo gráfico**

$\frac{7}{5}$

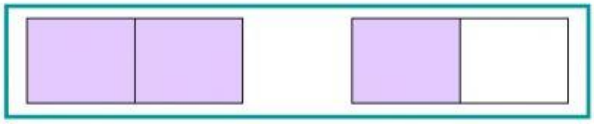

$\frac{10}{10}$

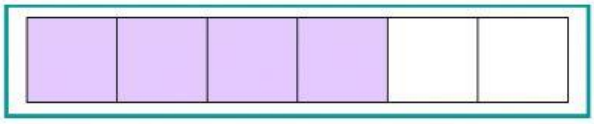

$\frac{3}{2}$

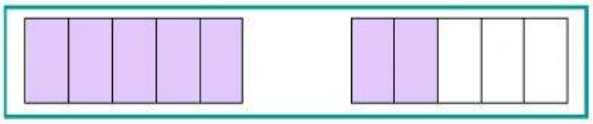

$\frac{4}{6}$

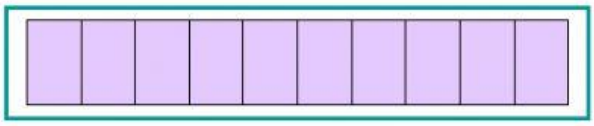

LIVEWORKSHEETS