ACTIVIDAD 17: SUMA Y RESTA DE NÚMEROS ENTEROS

- Para **sumar** a un número un **entero positivo**, movemos el número a la derecha en la recta numérica.

  Ejemplo: (–4) + (+7) = +3

  Situamos el (–4) en la recta numérica. El (+7) lo representamos avanzando hacia la derecha desde el (–4).

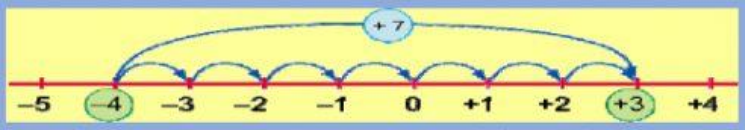

- Para **sumar** a un número un **entero negativo**, movemos el número a la izquierda en la recta numérica.

  Ejemplo: (+3) + (–4) = –1

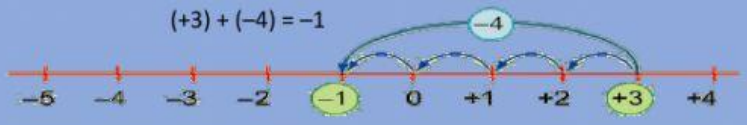

1. Con ayuda de esta recta numérica realiza las siguientes sumas:

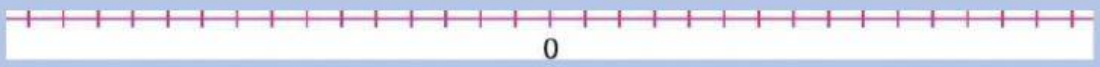

a)	(–3) + (+11) =	e)	(+5) + (–12) =	i)	(–9) + 0 =
b)	(+4) + (–10) =	f)	(–7) + (+7) =	j)	(–15) + (+10) =
c)	0 + (–6) =	g)	(+9) + (–3) =	k)	(–12) + (+12) =
d)	(+5) + 0 =	h)	(–14) + (+8) =	l)	(–7) + 0 =

- Para **restar** a un número un **entero positivo**, movemos el número a la izquierda de la recta numérica.

Ejemplo: 5 – 8 = –3

Colocamos el número entero (+5) sobre la recta numérica. El (+8) lo representamos retrocediendo hacia la izquierda desde el (+5)

- Para **restar** a un número un **entero negativo**, movemos el número a la derecha en la recta numérica.

Ejemplo: 2 – (– 5) = 7

Colocamos el número entero (+2) sobre la recta numérica. El (–5) lo representamos avanzando hacia la derecha desde el (+2).

2. Realiza las siguientes restas:

a)	(–3) – (+11) =	e)	(+5) – (+12) =	i)	(+9) – 0 =
b)	(+4) – (–10) =	f)	(+7) – (–7) =	j)	(–15) – (+10) =
c)	0 – (+6) =	g)	(+9) – (–3) =	k)	(+12) – (+12) =
d)	(–5) – 0 =	h)	(–14) – (+8) =	l)	(+7) – 0 =

LIVEWORKSHEETS

FERNANDO JOSÉ PRADOS GARRIDO