GARIS DAN SUDUT

NAMA :

NO. ABSEN :

KELAS :

KERJAKAN SOAL DI BAWAH INI DENGAN TEPAT

1. Sebutkan jenis-jenis sudut di bawah ini

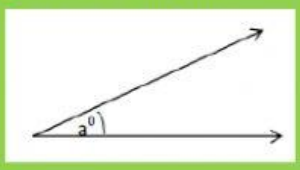

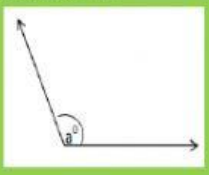

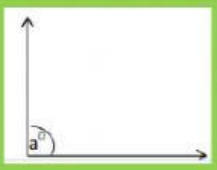

....

2. Pasangkan gambar dengan nama sudut yang sesuai

sudut lancip	sudut tumpul	sudut siku siku

3. Perhatikan gambar di bawah ini jika besar sudut r = 75 ^{0} berapa besar sudut s ?

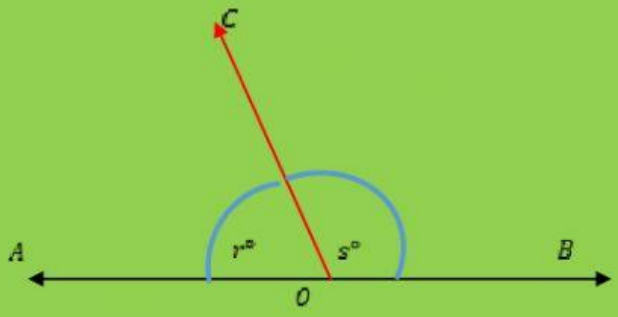

LIVEWORKSHEETS

4. Jika besar sudut K = 60 ^{0} berapa besar sudut L, sudut M, sudut N (tariklah jawaban dan lepaskan di pada huruf di gambar yang sesuai)

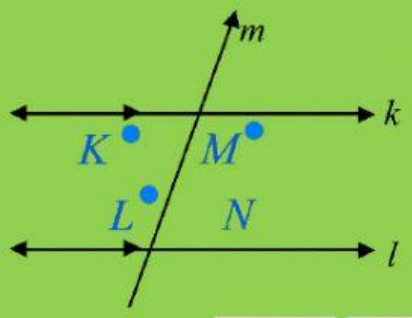

60 ^{0}	120 ^{0}	120 ^{0}

LIVEWORKSHEETS