Institución Educativa Privada
"Leónidas Yerovi"

Examen Virtual Septiembre 2021

Personal Social

Nombres y Apellidos : ..... **Fecha :** .....

Grado : 4to **Nivel :** Primaria

1) **¿De qué manera representan los Planos?**

   a) Mapas b) Dibujos c) Imagenes

2) **¿Qué es lo que se debe buscar siempre en los Planos?**

   a) Flecha que señale al Norte b) Flecha que señale al Sur c) Leyendas

3) **¿Cómo se llama la Línea Horizontal que está en la Mitad de la Tierra?**

   a) Hemisferio Norte b) Hemisferio Sur c) Linea Ecuatorial

4) **¿Marque los Paralelos que se encuentra en el Norte del Ecuador?**

   a) Tropico de Capricornio b) Tropico de Cancer c) Circulo Polar Artico

5) **¿Marque los Paralelos que se encuentra en el Sur del Ecuador?**

   a) Tropico de Capricornio b) Tropico de Cancer c) Circulo Polar Antartico

6) **Colocar los Nombres de los Paralelos Correspondiente al Mundo**

Circulo P. Artico

T. Cáncer

C. Polar Antártico

T. Capricornio

LIVEWORKSHEETS

7) Coloque los Nombres de los Hemisferios y los Paralelos según corresponda

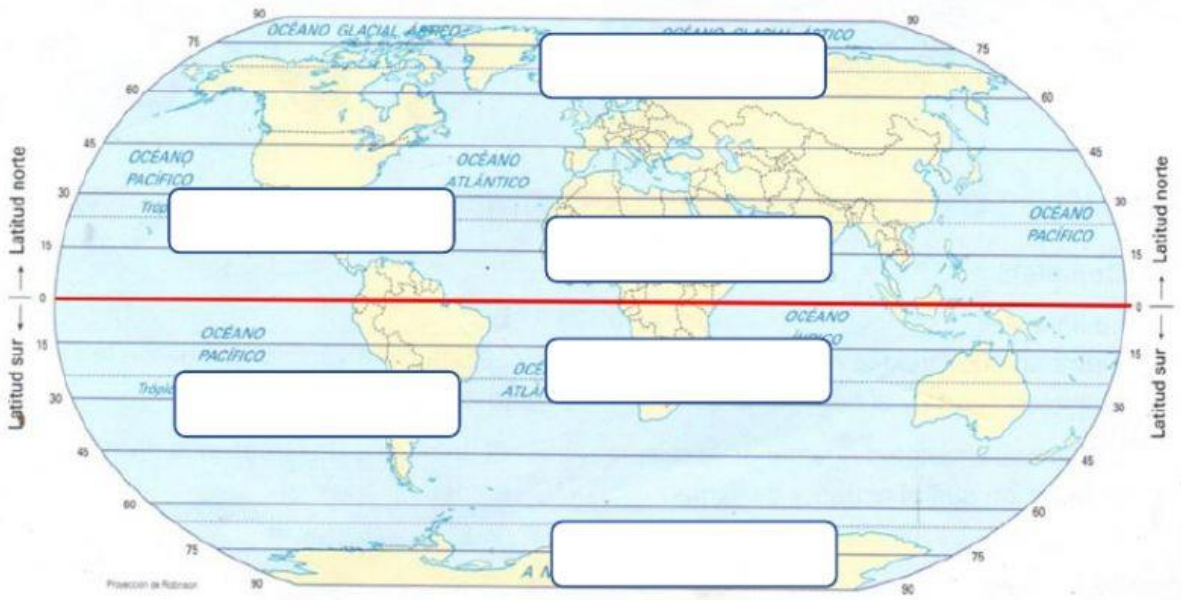

Hemisferio Sur | Circulo P. Artico | Hemisferio Norte

Trópico de Capricornio | Circulo P. Antartico | Trópico de Cáncer

8) ¿Coloque las figuras correspondientes a cada línea según se indica?

- Una luna en el Meridiano 0°
- Una Estrella en el Meridiano 30° Oeste
- Un Sol en el Meridiano 60° Este
- Un circulo en el Meridiano 10° Este
- Un Triangulo en el Meridiano 40° Este
- Un Cuadrado en el Meridiano 60° Oeste



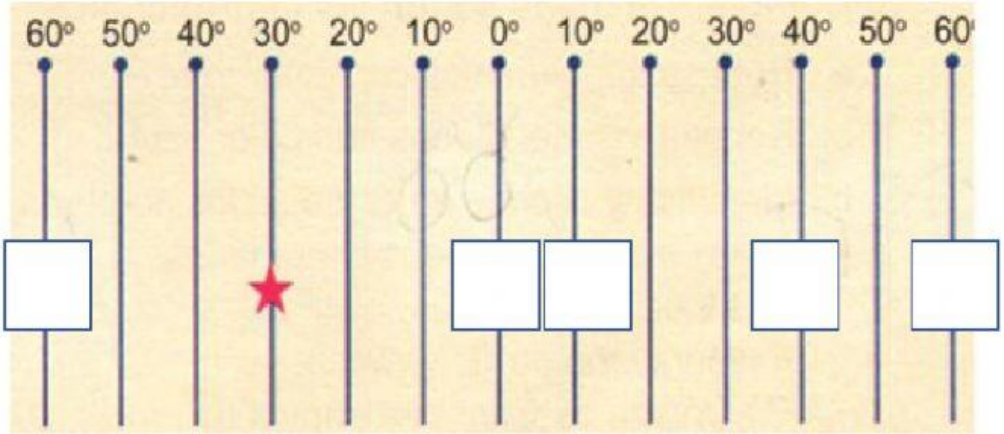

Profesor : Hitler Hidalgo Ruiz

LIVEWORKSHEETS