U.E. PROVINCIA DE PICHINCHA

Pendiente de la recta y ángulo de inclinación

1. **Completa los datos faltantes en la ubicación de los puntos y el procedimiento para hallar la pendiente teniendo en cuenta cada uno de los planos cartesianos.**

Plano Cartesiano	Escribe la ubicación de los puntos	Procedimiento para hallar la pendiente
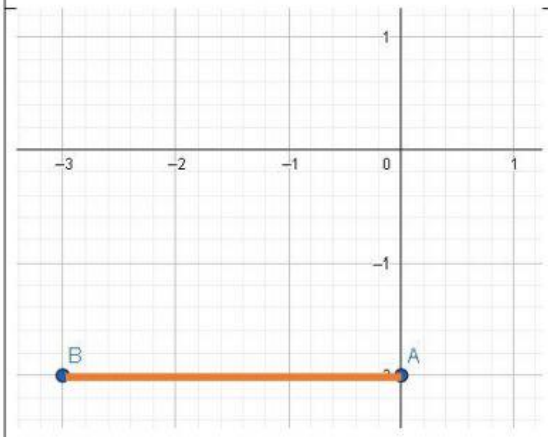	X_1 Y_1 A(,) X_2 Y_2 B(,)	$m = \frac{y_2 - y_1}{x_2 - x_1}$ $m = \frac{-(\quad)}{-3 -}$ $m = \frac{+}{-3}$ $m = __ =$
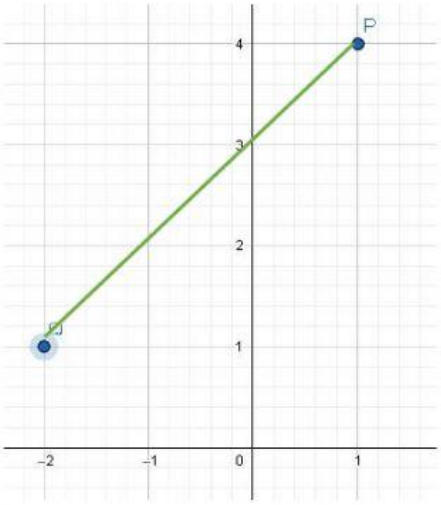	X_1 Y_1 P(,) X_2 Y_2 Q(,)	$m = \frac{2 - 1}{- 1}$ 2 $m = \frac{-}{-}$ $m = \frac{-3}{___} =$

LIVEWORKSHEETS
LIVEWORKSHEETS

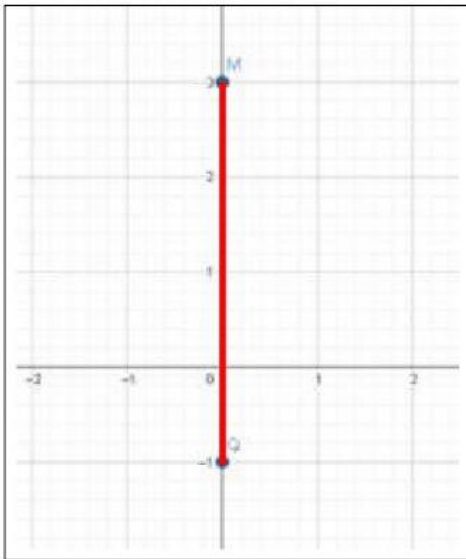	X_1 Y_1 M(,) X_2 Y_2 Q(,)	$m = \frac{2 - 1}{- 1}$ 2 $m = \frac{_}{_}$ $m = ___ =$

LIVEWORKSHEETS
LIVEWORKSHEETS