Tarikh:

13.1 KBAT AKTIVITI PERBINCANGAN

Meteoroid, asteroid dan komet
Meteoroid, asteroid and comet

PBD STM

Buku teks m/s 270 – 275

1 Kenal pasti objek-objek di angkasa lepas berdasarkan pernyataan yang diberikan. TP2
Identify the objects in outer space based on the given statements.

Video | Praktis Kendiri

Asteroid *Asteroid*	Meteoroid *Meteoroid*	Komet *Comet*	Meteorit *Meteorite*	Meteor *Meteor*

(a)

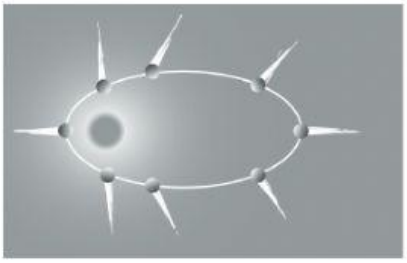

_____

- Terdiri daripada campuran ais, gas, debu dan batuan kecil yang beredar mengelilingi Matahari pada orbit tersendiri. Contoh: Komet Halley.

(b)

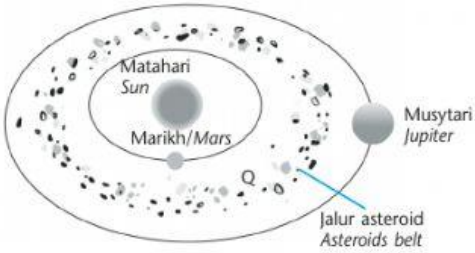

_____

- Ketulan batuan dan logam yang mengorbit Matahari di antara planet Marikh dengan Musytari. Asteroid juga disebut sebagai planet kecil.

(c)

X: _____
- Batuan kecil berlogam yang terapung di angkasa lepas.

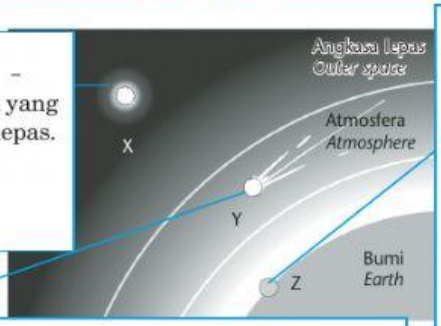

Z: _____
- Meteor yang belum habis terbakar di atmosfera Bumi yang sampai ke permukaan Bumi membentuk kawah.

Y: _____
- Meteoroid yang memasuki atmosfera Bumi dan kelihatan sebagai satu coretan cahaya yang dikenal sebagai tahi bintang.

2 Ramalkan keadaan Bumi jika berlaku perlanggaran meteoroid, asteroid dan komet dengan Bumi. TP4/KBAT

_____ besar akan berlaku yang meragut _____ dan memusnahkan _____.

BAB 13

LIVEWORKSHEETS