Ficha U10

Nombre y Apellidos: **CURSO 2º PRIMARIA**

Para hacer la ficha, tienes que situarte dentro de los cuadros verdes con el ratón y rellenar la casilla adecuadamente. Para ello **puedes y debes ayudarte** de: un **lápiz y papel**, donde puedes hacer las operaciones copiándolas y haciéndolas tranquilamente, no hay prisa, el caso es hacerlo despacio y bien y luego pones el resultado final en la casilla correspondiente. *Escribe bien tu nombre y apellidos* al principio de la ficha, recuerda que los nombres y apellidos la primera letra se escribe con mayúscula, y que en ***las soluciones debes escribir siempre con letras minúsculas***, recuerda que los números también tienen nombre y apellidos (las unidades que son, litros, manzanas, euros, metros, céntimos, patatas,…), si no lo pones bien te saldrá un resultado como equivocado, por ejemplo:

Pedro tiene 2 € y se encuentra 20 € en total tiene:

MAL. 25 ó 25€ ó veinticinco ó VEINTICINCO ó VEINTICINCO EUROS

BIEN: *veinticinco euros.* Sólo hay una forma de ponerlo y es siempre en minúscula y con las unidades de medida que son.

Una vez que hayas terminado, tienes que dar un click en la casilla **TERMINADO** y después ***debes elegir la opción de*** **enviar al maestro o profesor** al siguiente codigo: **2t7h6gsgzx**

y ya me llega a mí y te lo devuelvo corregido por papass2.0 a tus padres o tutores legales. Si eliges la opción de mostrar resultado no podrás enviármelo luego y no podré corregírtelo y darte puntos para las olimpiadas de trabajo y perderás puntos.

1. Descubre el número dibujado y completa su descomposición en forma de suma y escribe el número correspondiente con letra. Ten cuidado y fíjate bien, hay trampas que tienes que salvar.

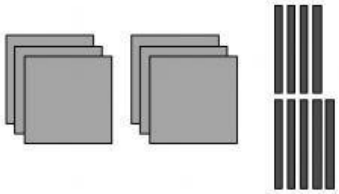

[ ] = [ ] + [ ]

[ ]

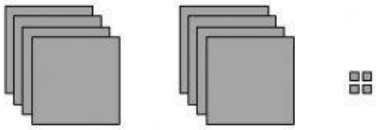

[ ] = [ ] + [ ] + [ ]

[ ]



[ ] = [ ] + [ ]

[ ]

2. Compara y ordena estos números del mayor al menor arrastrando los números a su sitio.

865 – 856 – 731 – 317 – 592 – 925 – 268 - 351

[ ] > [ ] > [ ] > [ ] > [ ] > [ ] > [ ] > [ ]

LIVEWORKSHEETS

3. Escribe el nombre de cada número correctamente en minúsculas, recuerda.

975 _____

632 _____

814 _____

746 _____

4. Completa, el resultado y ponlo también en forma de multiplicación:

- 4 + 4 + 4 + 4 = ☐ ▶ ☐ × ☐ = ☐
- 5 + 5 + 5 = ☐ ▶ ☐ × ☐ = ☐
- 3 + 3 + 3 + 3 + 3 = ☐ ▶ ☐ × ☐ = ☐
- 2 + 2 + 2 + 2 + 2 = ☐ ▶ ☐ × ☐ = ☐

5. Multiplica, empieza por las unidades, sigues con las decenas y lo último las centenas.

82	91	133	403
x 4	x 5	x 3	x 2
☐	☐	☐	☐

6. Calcula y piensa tranquilamente.

5 × 0 = ☐	2 × 8 = ☐	3 × 6 = ☐	4 × 4 = ☐
5 × 3 = ☐	2 × 9 = ☐	3 × 8 = ☐	4 × 5 = ☐
5 × 6 = ☐	2 × 5 = ☐	3 × 9 = ☐	4 × 6 = ☐
5 × 9 = ☐	2 × 6 = ☐	3 × 7 = ☐	4 × 9 = ☐

LIVEWORKSHEETS

7. Resuelve.

Para regar las macetas del patio, Clara gasta 210 litros de agua cada día. ¿Cuántos litros habrá gastado después de 4 días? Marca la operación a realizar al lado de la casilla que corresponde con una X.

Operaciónes

Datos ▶ y

Solución ▶

8. Resuelve.

Miguel tiene 675 cromos de animales y Laura tiene 896 cromos. ¿Cuántos cromos tiene Miguel menos que Laura? Marca la operación a realizar al lado de la casilla que corresponde con una X.

Operación

Datos ▶ y

Solución ▶

9. Resuelve o inventa un problema parecido a éste y resuélvelo adecuadamente. Cambia los datos o añade más si quieres, cambia el nombre y pon el tuyo. Si no tienes ganas de pensar resuelve este problema y marca la operación a hacer con una X en la casilla al lado del signo.

Pedro conduce su camión 5 días a la semana. Cada día gasta 101 litros de gasoil. ¿Cuántos litros gasta cada semana?

Operación

Datos ▶ y

Solución ▶

LIVEWORKSHEETS