MATEMÁTICAS 5º REVISIÓN CONTENIDOS UNIDAD 10

1. Calcula el perímetro de las siguientes figuras en tu cuaderno y selecciona el resultado correcto.

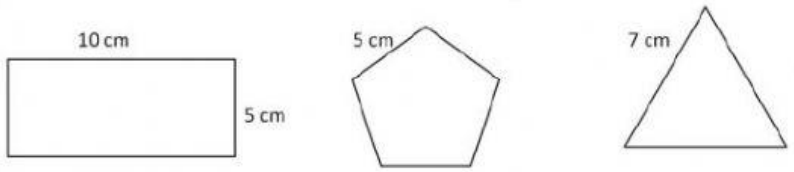

2. Une con flechas cada polígono con el nombre que le corresponde.

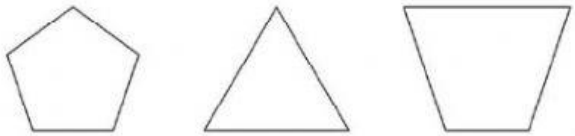

Triángulo | Cuadrilátero | Pentágono

3. Relaciona con flechas los polígonos con los conceptos que los caracterizan.

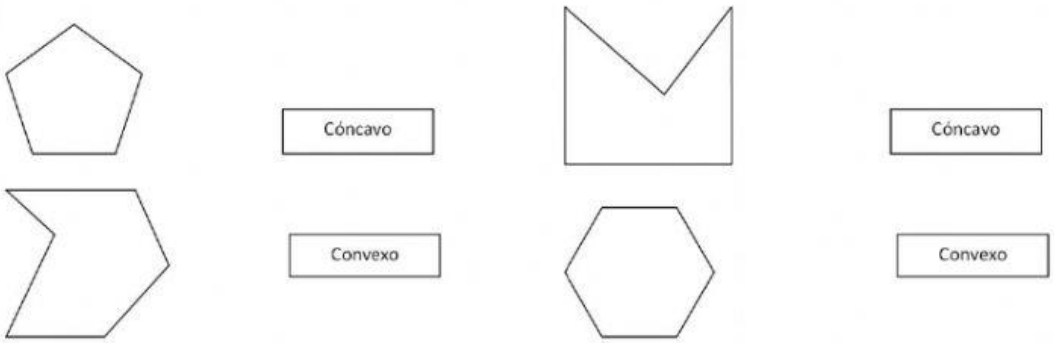

4. Clasifica los siguientes polígonos en regulares e irregulares.



LIVEWORKSHEETS

5. Clasifica los siguientes triángulos según sus lados y según sus ángulos, uniéndolos con flechas a los conceptos que los definen.

Equilátero | Isósceles | Escaleno

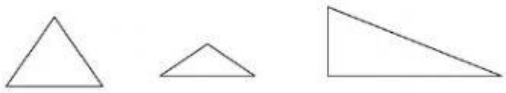

Acutángulo | Rectángulo | Obtusángulo

6. Relaciona con flechas los siguientes nombres con los elementos representados.

Circunferencia Círculo Arco Sector circular Diámetro

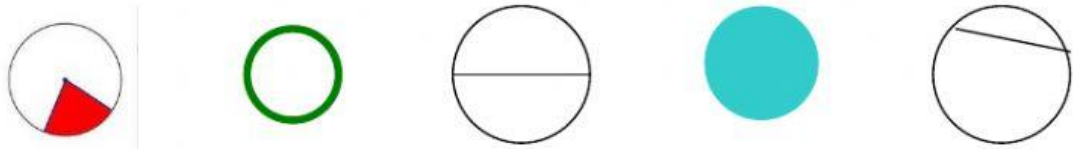

7. Completa la siguiente tabla.

	Nombre	¿Es un poliedro?	¿Es un prisma?	¿Es una pirámide?	N.º de vértices	N.º de caras	N.º de aristas

LIVEWORKSHEETS