Paralelos y meridianos. Latitud y longitud

1. Selecciona la respuesta correcta.

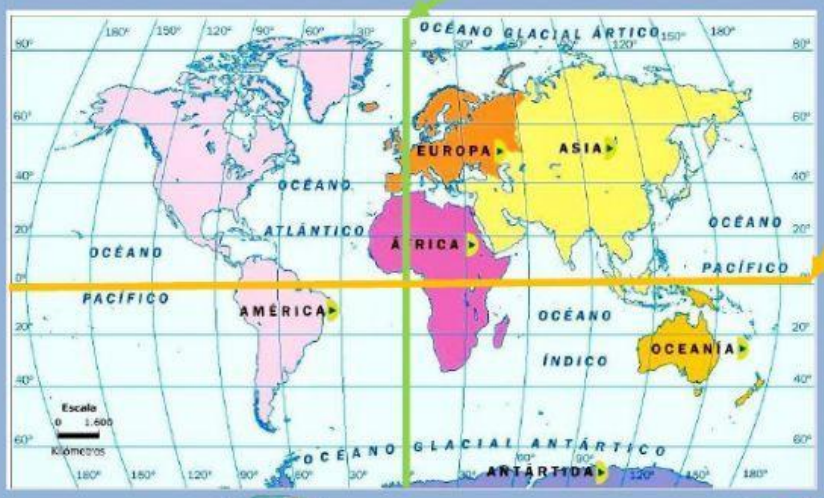

HEMISFERIOS

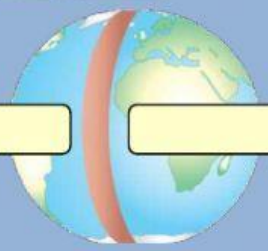

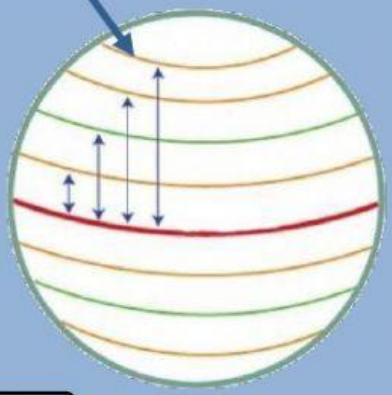

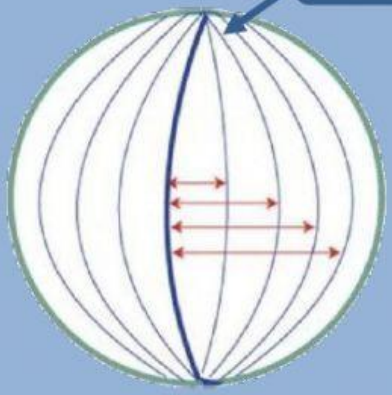

La _____ es la distancia que existe desde un paralelo al **ecuador**. Va desde 0° (ecuador) hasta 90°en los polos, y puede ser norte o sur.

La _____ es la distancia que existe desde un meridiano al **meridiano de Greenwich**. Va desde 0° (meridiano de Greenwich) hasta 180°, y puede ser este u oeste.

LIVEWORKSHEETS