Latihan Tuas (Mesin)

1. Lengkapkan tempat kosong dengan pilihan jawapan yang diberikan.

Fulkrum	pengimbang	Daya	beban	kesan
berat	tarikan	tiga	objek	jasad

a) Tuas terdiri daripada _____ bahagian, iaitu _____, fulkrum dan daya.

b) Beban ialah _____ sesuatu _____.

c) _____ ialah suatu titik pada palang atau _____ yang berfungsi sebagai _____ atau penyokong.

d) _____ ialah tolakan dan _____ ke atas sesuatu objek yang memberikan _____.

2. Kenal pasti kedudukan BEBAN, FULKRUM dan DAYA pada objek berikut.

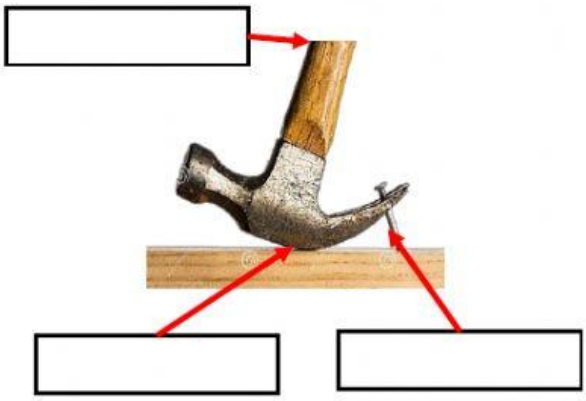

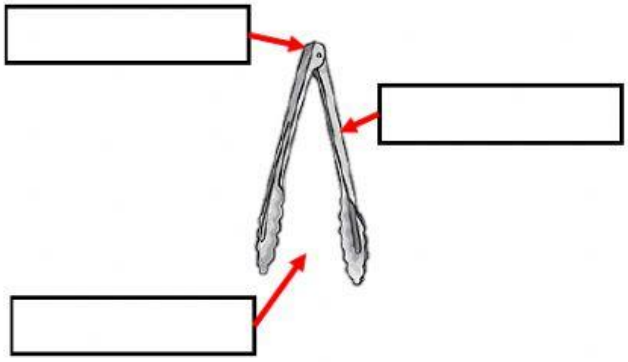

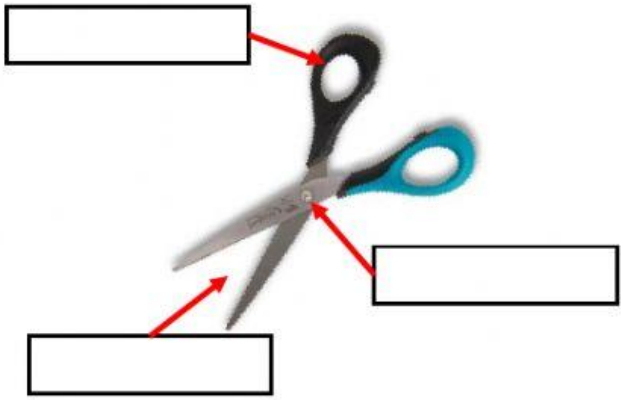

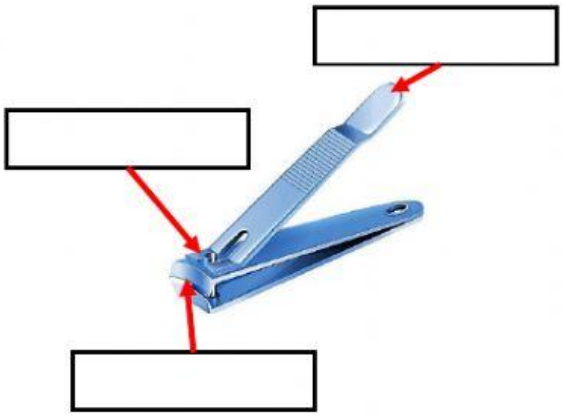

Latihan Tamat

Pengajar Wellter CR
PdPR @ SKSP

LIVEWORKSHEETS