REPASO MATEMÁTICAS MES DE OCTUBRE

1. Dictado de números.

2. Escribe cómo se lee cada número.

180

92

204

156

Ordénalos de mayor a menor y pon el signo que corresponda: < o >.

3. Escribe el número anterior y posterior.

139	99	200
197	179	101
163	180	59

LIVEWORKSHEETS

4. Completa las series.

97	98							
107	108							
198	197							
142	141							

5. Calcula, siguiendo el procedimiento más rápido, cuanto falta para llegar a 100.

63 + ☐ = 70 + ☐ = 100

29 + ☐ = ☐ + ☐ = 100

57 + ☐ = ☐ + ☐ = 100

82 + ☐ = ☐ + ☐ = 100

6. Coloca donde corresponda.

LIVEWORKSHEETS

7. Calcula.

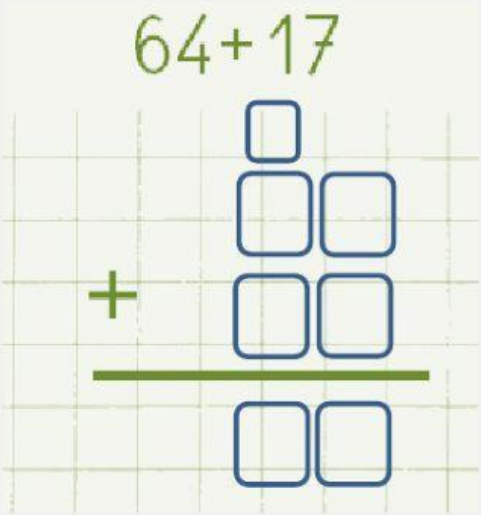

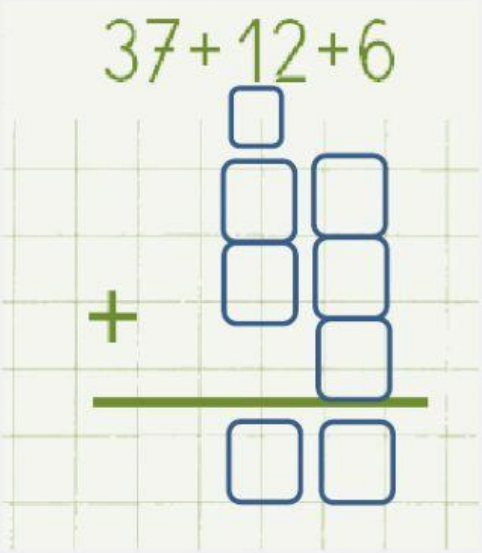

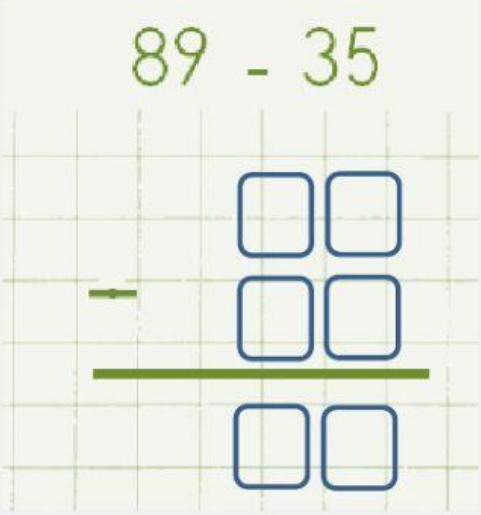

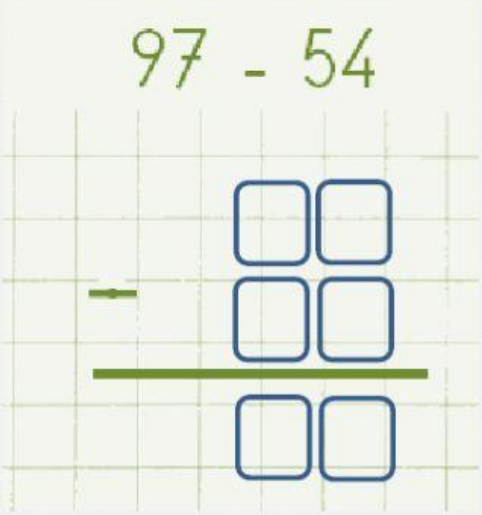

8. Observa el calendario y contesta.

Octubre 2021

Lunes	Martes	Miércoles	Jueves	Viernes	Sábado	Domingo
				1	2	3
4	5	6	7	8	9	10
11	12	13	14	15	16	17
18	19	20	21	22	23	24
25	26	27	28	29	30	31

¿Cuántos jueves tiene octubre?

¿Qué día de la semana es el 9 de octubre?

¿Qué día del mes es el segundo miércoles?

Sí hoy es lunes 18. ¿Qué día será mañana?

¿Y qué día fue ayer?

¿Qué día termina el mes?

LIVEWORKSHEETS

9. Observa y contesta.

¿Cuántos meses tiene un año? ☐

¿Cuántas semanas tiene un mes? ☐

¿Qué mes viene después de noviembre? ☐

¿Qué mes tiene menos días? ☐

¿Cuál es el primer mes del año? ☐

10. Julio tiene 56 € ahorrados. Ha ido a la tienda y se ha gastado 12 €. ¿Cuántos euros le quedan?

Datos: Tiene ahorrados ☐ €. Se ha gastado ☐ €.	
Hay que: ☐ Juntar ☐ Sumar ☐ Separar ☐ Restar	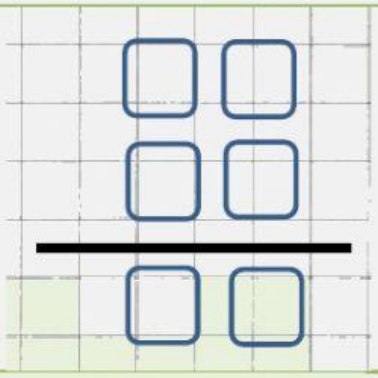
A Julio le quedan	

LIVEWORKSHEETS