LEMBAR KERJA PESERTA DIDIK (LKPD)

NAMA:

TANGGAL:



Simaklah tayangan video berikut ini dengan seksama

APA NAMA BANGUN RUANG DI BAWAH INI... .

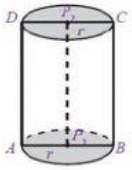

A. Tabung
B. Prisma
C. Balok
D. Kerucut

DI BAWAH INI YANG BUKAN TERMASUK JARING-JARING TABUNG ADALAH... .

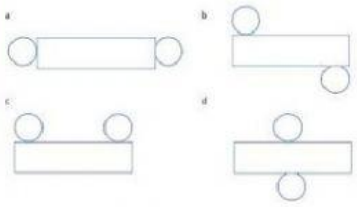

TARIKLAH RUMUS VOLUME YANG SESUAI DENGAN GAMBAR BANGUN RUANG!

Bangun Ruang	Rumus Volume	
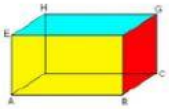		$V = \pi r^2 t$
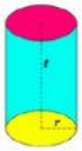		$\text{Volume} = \frac{1}{3}\pi r^2 t$
		$V = P \times L \times T$

Perhatikan ciri-ciri bangun di bawah ini!

1. Memiliki titik puncak
2. Mempunyai 1 buah selimut
3. Tidak mempunyai sudut
4. Semua sisinya sama luas

Dari ciri-ciri tersebut di atas, ciri-ciri bangun ruang tabung ditunjukkan oleh nomor... .

A. 1 dan 2
B. 2 dan 3
C. 3 dan 4
D. 1 dan 3

TARIKLAH NAMA UNSUR TABUNG SESUAI DENGAN LETAKNYA!

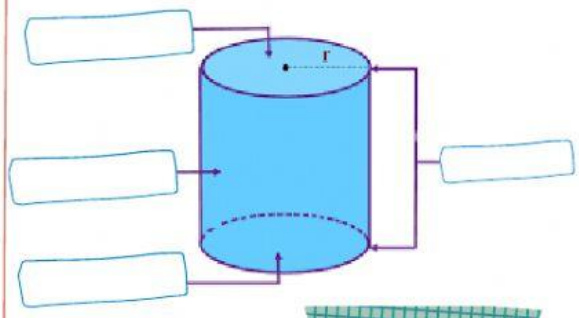

SELIMUT

ATAS

RUSUK

ALAS

LIVEWORKSHEETS