ZLOMKY

1. Zapište zlomkem

Dvě pětiny | tři osminy | sedm desetin | pět polovin

2. Zapište zlomkem

Jaká část celku je vybarvená?

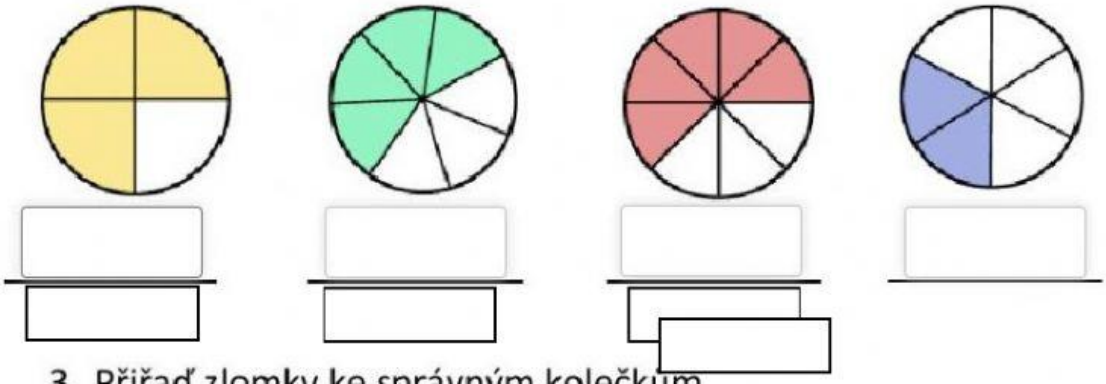

3. Přiřaď zlomky ke správným kolečkům

$\frac{2}{6}$ $\frac{1}{4}$ $\frac{5}{8}$ $\frac{2}{7}$ $\frac{3}{5}$

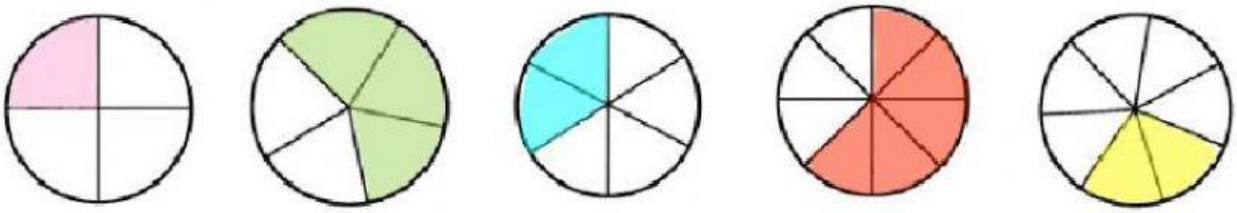

LIVEWORKSHEETS

4. Jaká část obdélníku je vybarvená červeně a jaká část je vybarvena žlutě?

A.

B.

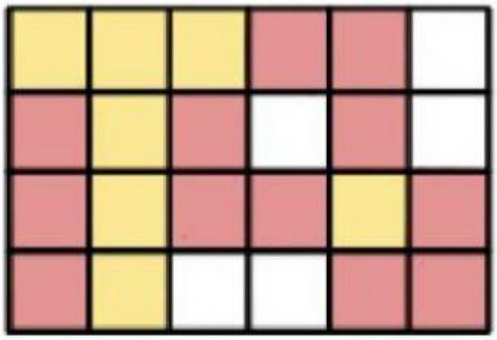

ČERVENÁ $\frac{6}{15}$ $\frac{5}{15}$ $\frac{4}{15}$

ŽLUTÁ $\frac{6}{15}$ $\frac{5}{15}$ $\frac{4}{15}$

ČERVENÁ $\frac{5}{24}$ $\frac{12}{24}$ $\frac{7}{24}$

ŽLUTÁ $\frac{5}{24}$ $\frac{12}{24}$ $\frac{7}{24}$

5. Jaká část obdélníků ze cvičení 4. je vybarvená celkem?

A. $\frac{\square}{\square}$

B. $\frac{\square}{\square}$

6. Doplň

$\frac{3}{8} + \frac{\square}{\square} = \frac{7}{8}$

$\frac{\square}{\square} - \frac{4}{12} = \frac{2}{12}$

$\frac{5}{18} + \frac{12}{18} = \frac{\square}{\square}$

$\frac{3}{25} + \frac{12}{25} - \frac{7}{25} + \frac{11}{25} = \frac{\square}{\square}$

7. POROVNEJ:

LIVEWORKSHEETS

$\frac{3}{4} \square \frac{1}{4}$ $\frac{4}{10} \square \frac{9}{10}$ $\frac{7}{5} \square \frac{14}{10}$

$\frac{7}{7} \square \frac{12}{7}$ $\frac{6}{7} \square 1$

8. ROZŠIŘ NEBO KRAŤ:

$\frac{3}{5} = \frac{\quad}{10}$ $\frac{4}{8} = \frac{2}{\quad}$ $\frac{7}{8} = \frac{\quad}{24}$ $\frac{27}{45} = \frac{9}{\quad}$

9. Vyberte, jaká část je vybarvena:

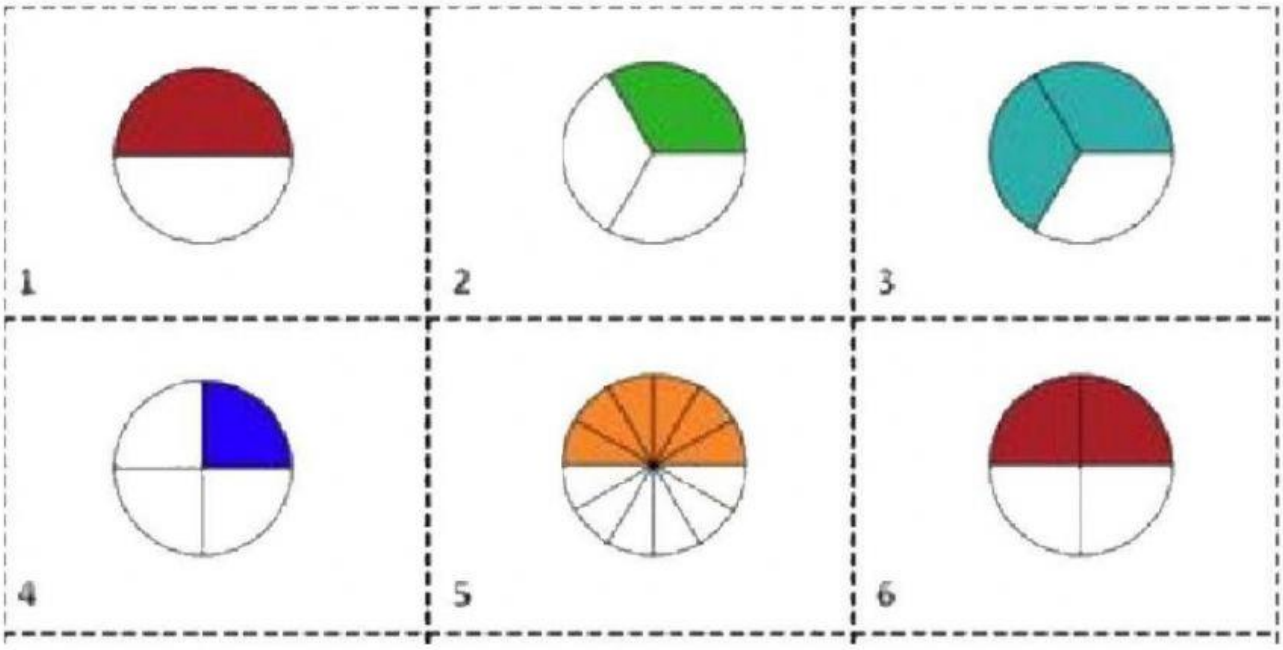

10. Který obrázek odpovídá zlomku $\frac{4}{7}$?

LIVEWORKSHEETS

11. Spoj šipkami správné odpovědi

a) $\frac{3}{5}$	$\frac{148}{10}$
b) 0,16	$\frac{16}{10}$
c) $\frac{8}{5}$	$\frac{16}{100}$
d) 14,8	0,6

12. Označ zlomky, které jsou v základním tvaru.

a) $\frac{28}{35}$

b) $\frac{1}{5}$

c) $\frac{18}{63}$

d) $\frac{7}{13}$

LIVEWORKSHEETS