Họ và tên:..... Lớp: 1A.....

PHIẾU ÔN TẬP TOÁN – TUẦN 6

Bài 1: Tính

1 + 3 = ...	4 + 2 = ...	5 + 1 = ...
3 + 3 = ...	4 + 1 = ...	2 + 3 = ...

Bài 2: Số

a.



b.

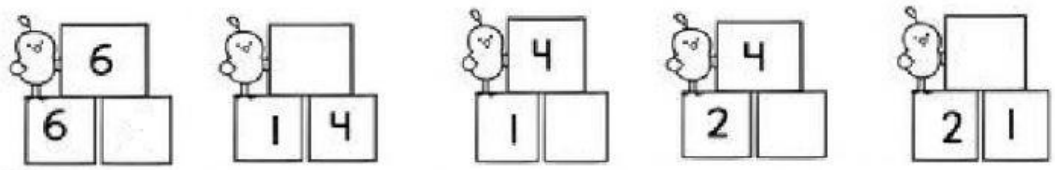

Bài 3: Nối phép tính với số thích hợp.

3 + 3	1 + 1	2 + 3	2 + 1
6	3	2	5

LIVEWORKSHEETS

Bài 4: Điền phép tính thích hợp cho bức tranh sau.



Bài 5. Điền số thích hợp vào chỗ trống.

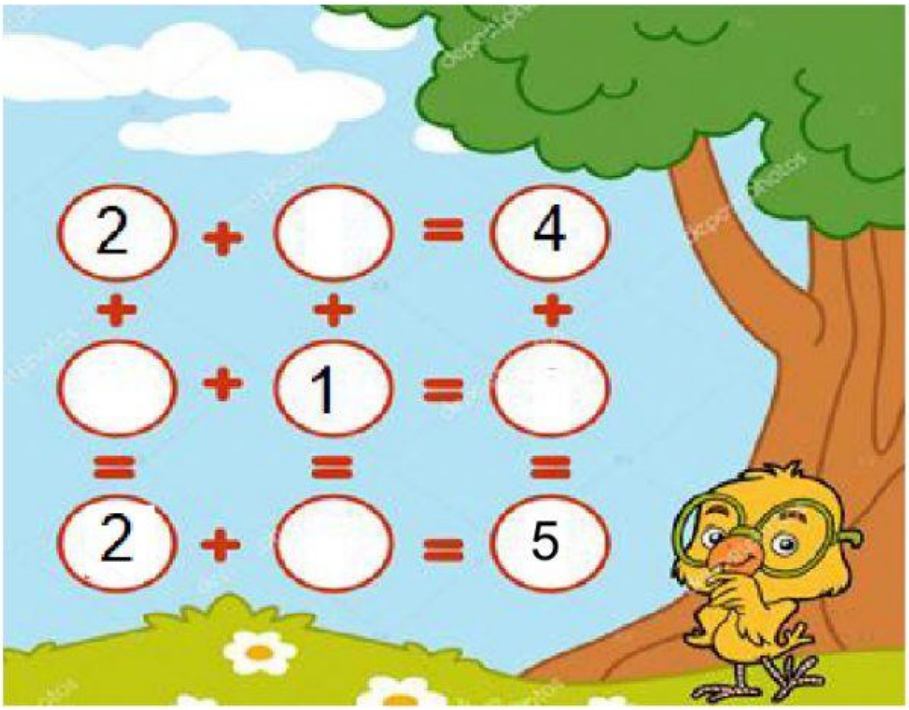

LIVEWORKSHEETS

LIVEWORKSHEETS