MEDIDA 6º Primaria

1. Completa los recuadros que faltan.

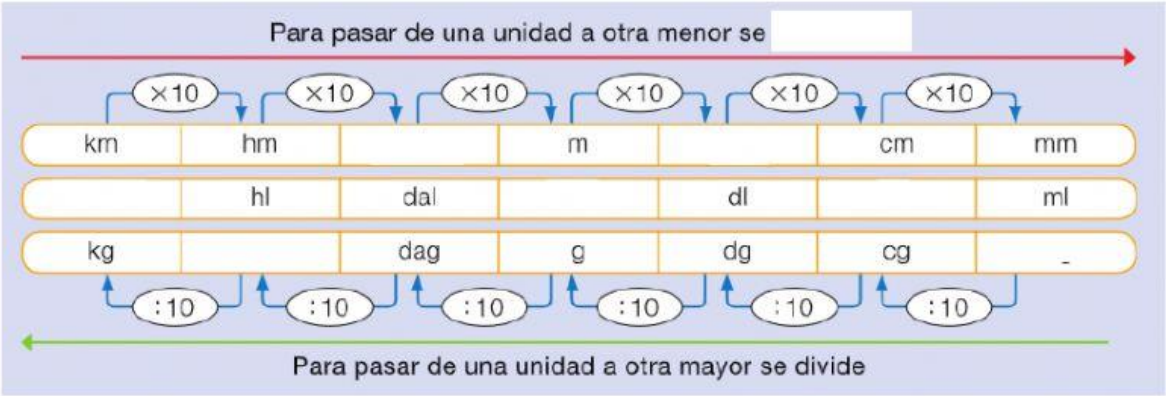

2. Ordena de menor a mayor las siguientes medidas (primero pasa todas las medidas a una misma unidad y luego ordena arrastrando las casillas a su lugar).

67500 cm	0.3 Km 28 m	7 hm 5 dam	295 m

	<		<		<	

3. Resuelve el siguiente problema y marca la solución correcta:

Un camión puede llevar una carga máxima de 5 t. De una fábrica ha recogido 6 contendores de 3 q y 85 Kg cada uno, pero aún podría entrar más peso. ¿Cuántos kilos más puede cargar?

- ☐ Aún puede cargar 3690 Kg.
- ☐ Pueden entran 3710 Kg.
- ☐ Puede cargar 2690 Kg.
- ☐ Aún entran 370 Kg.

4. Relaciona.

CAPACIDAD	LONGITUD	SUPERFICIE

m	m^2	m^3

5. Arrastra hasta la tabla de unidades los objetos, dejando cada uno de ellos en la celda con la unidad de capacidad que le corresponda.

LIVEWORKSHEETS

MEDIDA 6º Primaria

kl	hl	dal	l	dl	cl	ml

6. Observa las medidas y elige la opción correcta.

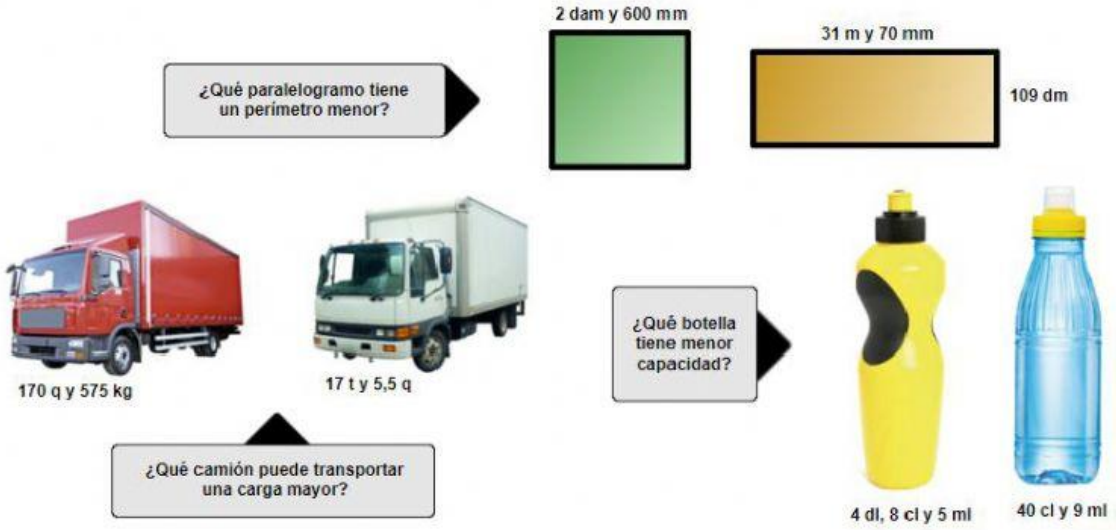

7. Piensa y une con la unidad más conveniente:

La superficie de Rincón de Seca	m^3
La capacidad de una piscina	Km^2
Tu habitación	cm^3
Una lata de refresco	m^2

8. Calcula el volumen de cada cuerpo y completa, utilizando el orden *a x b x c*

LIVEWORKSHEETS

MEDIDA 6º Primaria

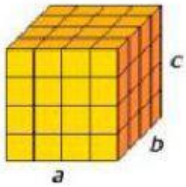

Volumen = ☐ x ☐ x ☐ = ☐

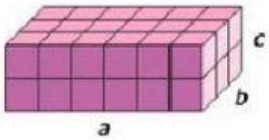

Volumen = ☐ x ☐ x ☐ = ☐

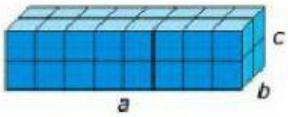

Volumen = ☐ x ☐ x ☐ = ☐

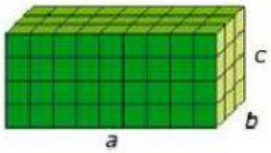

Volumen = ☐ x ☐ x ☐ = ☐

9. Relaciona las figuras que tengan el mismo volumen.

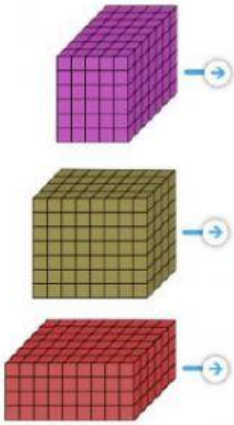

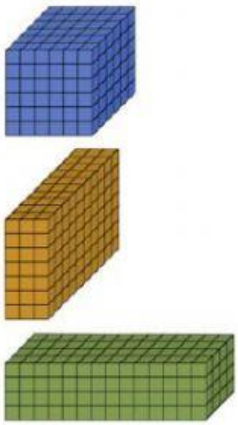

10. Relaciona las equivalencias entre unidades de volumen y de capacidad.

3 m3	3 cm3	3 dm3
3 ml	3 Kl	3 l

LIVEWORKSHEETS