Completa les parts del microscopi

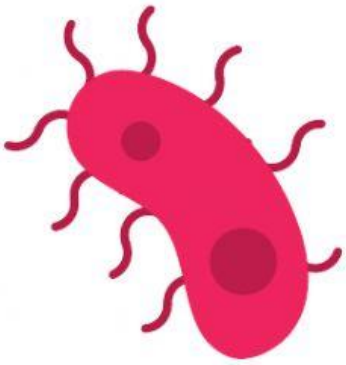



Escriu les funcions de cada part del microscopi

– La _____ permet il·luminar la mostra.

– L'_____ és la part per on mirem i treballa com una lupa.

– El _____ i el _____ serveixen per enfocar la mostra perquè es vegi de manera nítida.

– L'_____ conté les lents que queden més a prop de la mostra.

– La _____ és un vidre molt prim i transparent.

– El _____ regula la intensitat de la llum.

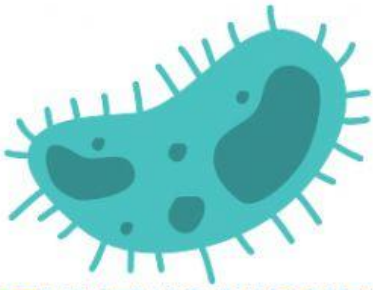

LIVEWORKSHEETS