FICHA DE NUMERACIÓN Y RESOLUCIÓN DE PROBLEMAS

1. Los tres cerditos tienen diferentes cifras. Averigua qué números son , cómo se descomponen y después, escribe cómo se leen:

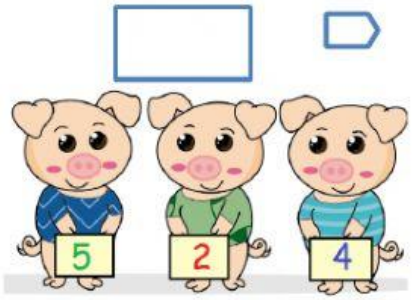

centenas, decenas y unidades

+ + =



9 centenas y 7 unidades

+ =



centenas, decenas y unidades

+ + =



centenas, decenas y unidades

400 + 10 + 9 =

2. Ordena de mayor a menor los números del ejercicio anterior utilizando el signo correspondiente.

LIVEWORKSHEETS

3. Caperucita lleva a su abuela en la cesta 4 medios kilos de asado de carne y cuatro cuartos de tarda de arándanos ¿Cuántos kilos de comida le lleva Caperucita a su abuela en la cesta?

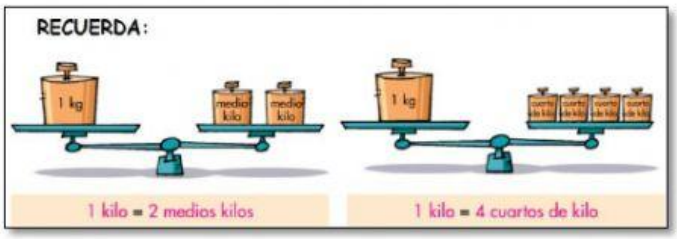

DATOS :

OPERACIÓN:

SOLUCIÓN: Caperucita lleva..... kilos de comida en la cesta.

4. Observa el dibujo. ¿Cuántos kilómetros recorre Caperucita si va el camino verde para llegar a casa de su abuelita?

DATOS:

OPERACIÓN:

- SOLUCIÓN: Si Caperucita va por el camino verde recorre ..... kilómetros.

→¿Cuántos kilómetros tiene más el camino verde que el azul?

El camino verde tiene ..... kilómetros más que el camino azul.

LIVEWORKSHEETS