தேர்வுக் களம் 10

தாள் - 1

கேள்விகளுக்குச் சரியான விடையைத் தெரிவு செய்க.

1. பின்வருபனவற்றுள் எது ஓர் எளிய எந்திரமாகும்?

A. திருகாணி B. நகவெட்டி C. கத்தரிக்கோல் D. வரைமானி

2. ஒரு கத்தரிக்கோலில் பயன்படுத்தப்படும் எளிய எந்திரங்கள் யாவை?

i ஆப்பு ii சாய்தளம் iii திருகாணி iv நெம்புகோல்

A. i, ii, iii B. i, iii, iv C. ii, iii, iv D. i, ii, iii, iv

3. திருகாணியைக் கொண்டிருக்கும் கூட்டு எந்திரங்கள் யாவை?

i

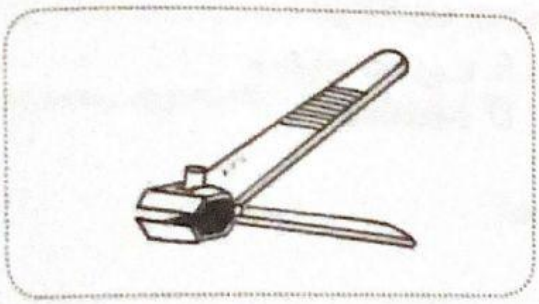

ii

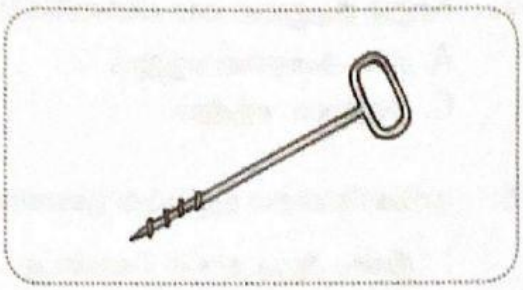

iii

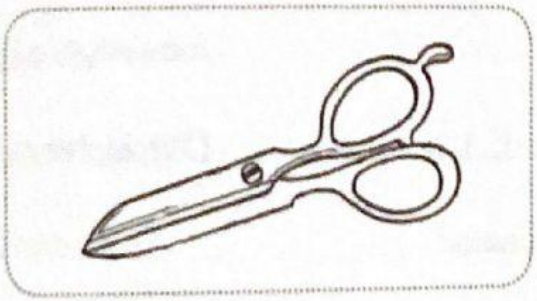

iv

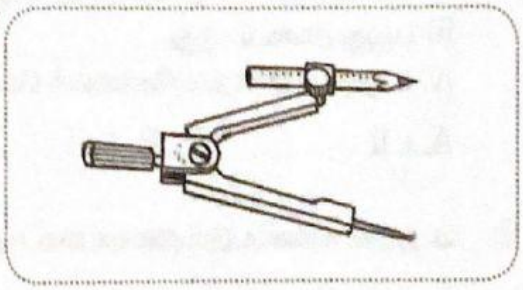

A. i, ii, iii B. i, iii, iv C. ii, iii, iv D. i, ii, iii, iv

4. கூட்டு எந்திரத்தை விளக்கும் சரியான கூற்று எது?

A. ஒன்றுக்கு மேற்பட்ட எளிய எந்திரத்தைக் கொண்டிருக்கும் கருவியாகும்.
B. இரண்டு எளிய எந்திரங்களைக் கொண்டிருக்கும் கருவியாகும்.
C. பாரமான பொருள்களைத் தூக்கிட உதவும் கருவியாகும்.
D. அறுவடை செய்ய உதவும் கருவியாகும்.

5. ஒரு நிலையான கருவியின் சிறப்புத் தன்மைகள் யாவை?

i ஏற்புடைய மூலப்பொருளால் செய்யப்பட்டது.
ii நீண்ட நாள் பயன்பாட்டுக்குப் பொருத்தமானது.
iii எளிமையாகவும் பாதுகாப்பாகவும் பயன்படுத்தக்கூடியது.
iv சுற்றுச் சூழலுக்கு மாசு ஏற்படுத்தாது.

A. i, ii, iii B. i, iii, iv C. ii, iii, iv D. i, ii, iii, iv

LIVEWORKSHEETS

6. இந்தத் தள்ளுவண்டி முறையாக இயங்கத் தேவைப்படும் எளிய எந்திரங்கள் யாவை?



i நெம்புகோல்
ii ஆப்பு
iii திருகாணி
iv சக்கரமும் இருசும்

A. i, ii, iii B. i, ii, iv C. i, iii, iv D. ii, iii, iv

7. சுற்றுச் சூழலுக்கு மாசு விளைவிக்காத நிலையான கருவி எது?

A. மின் அரைவை எந்திரம்
B. உழுவை எந்திரம்
C. அறுவடை எந்திரம்
D. மிதிவண்டி

8. நவீன பென்சில் திருகியின் நன்மைகள் யாவை?

i நீண்ட ஆயுட்காலம் கொண்டது.
ii பென்சிலை எளிதாகத் திருகுகிறது.
iii பழுது அடையாதது.
iv உறுதியான நெம்புகோலைக் கொண்டது.

A. i, ii B. i, iii C. i, iv D. ii, iii, iv

9. படத்தில் காணப்படும் நிலையான கருவிகள் யாவை?



A. அரைவை எந்திரமும் தள்ளுவண்டியும்
B. உழுவை எந்திரமும் தள்ளுவண்டியும்
C. கற்காரைக் கலவை எந்திரமும் தள்ளுவண்டியும்
D. கற்காரைக் கலவை எந்திரமும் பளு தூக்கியும்

LIVEWORKSHEETS