PROBLEMAS UNIDAD 2

1. Completa y resuelve:

En segundo de Primaria hay 105 niñas y 81 niños. ¿Cuántos niños y niñas hay en total?

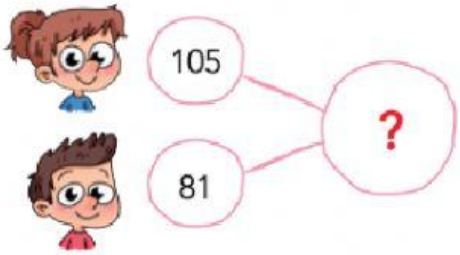

[ ] ◯ [ ] = [ ]

▶ Hay [ ] niños y niñas.

En un quiosco hay 189 periódicos y venden 77. ¿Cuántos quedan por vender?

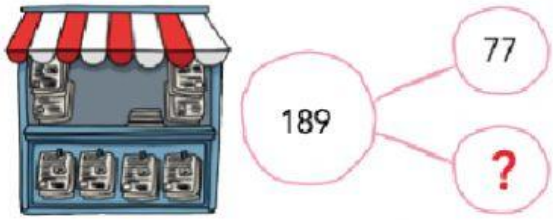

[ ] ◯ [ ] = [ ]

▶ Quedan [ ] por vender.

En una escuela de baile hay 189 aprendices y se marchan 32. ¿Cuántos quedan en la escuela?



[ ] ◯ [ ] = [ ]

▶ Quedan [ ] aprendices.

En una teatro han vendido 103 entradas infantiles y 73 de adulto. ¿Cuántas han vendido en total?

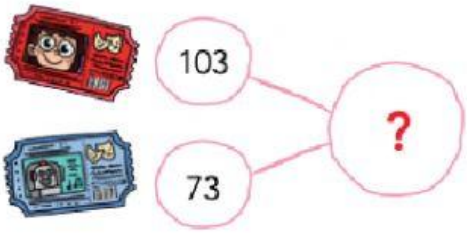

[ ] ◯ [ ] = [ ]

▶ Han vendido [ ] entradas.

LIVEWORKSHEETS

2. ¿Cuántas canicas faltan para tener 100?

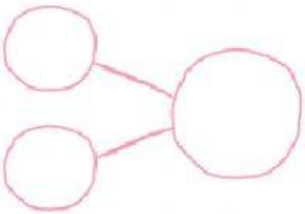

Hay ____ canicas.

Faltan ____ canicas para tener 100.

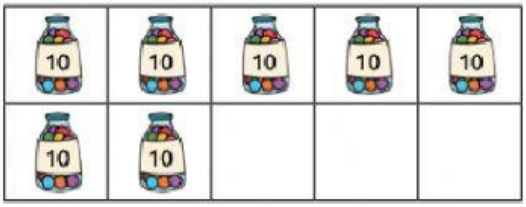

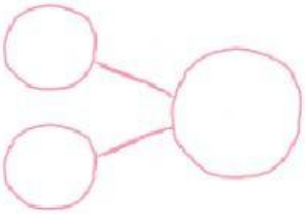

Hay ____ canicas.

Faltan ____ canicas para tener 100.

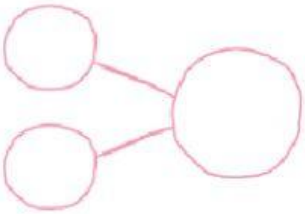

Hay ____ canicas.

Faltan ____ canicas para tener 100.

LIVEWORKSHEETS