7.1 SETERIKA ELEKTRIK

CARTA ALIR MENGESAN KEROSAKAN SETERIKA ELEKTRIK

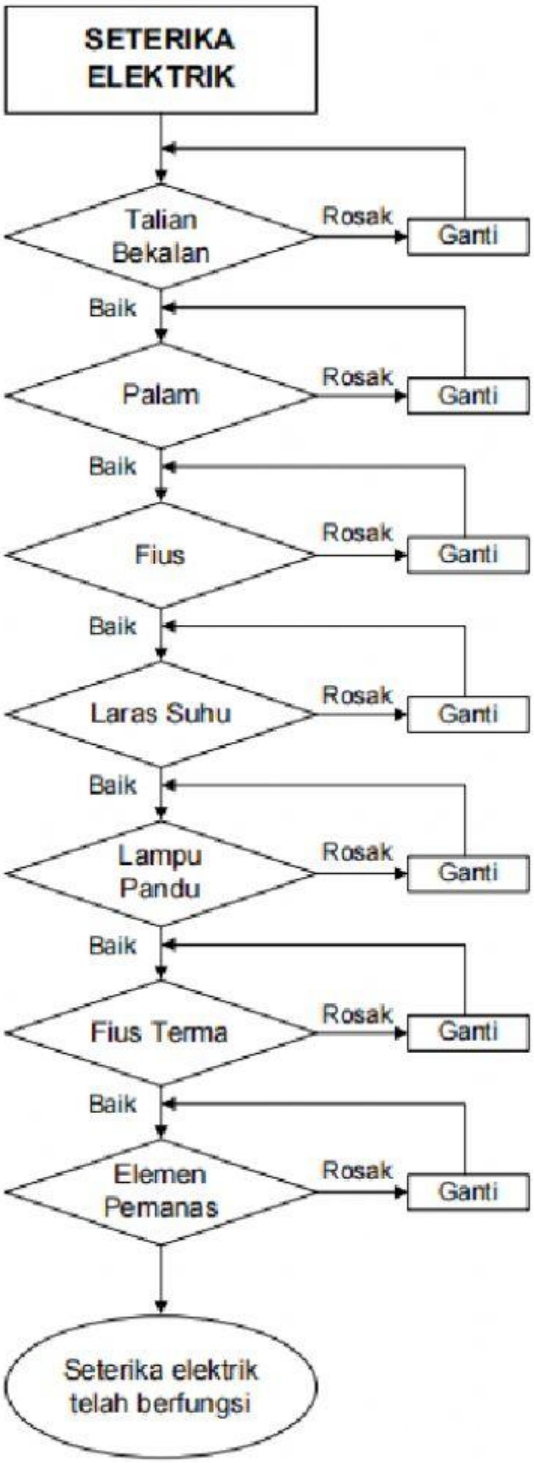

Rajah 7.5: Carta alir mengesan kerosakan seterika elektrik

LIVEWORKSHEETS

Mengesan kerosakan seterika elektrik berdasarkan carta alir.

1. Berikut adalah langkah pengujian bagi mengesan kerosakan seterika elektrik yang tidak mengikut urutan.

Bil	Langkah pengujian
A	Lakukan ujian keterusan pada pelaras suhu.
B	Lakukan ujian keterusan pada elemen pemanas.
C	Lakukan ujian keterusan pada fius terma.
D	Lakukan pemeriksaan secara visual pada palam.
E	Lakukan ujian keterusan pada fius.
F	Lakukan ujian keterusan pada talian bekalan.
G	Lakukan ujian keterusan pada lampu pandu menggunakan meter pelbagai.

Lengkapkan langkah kerja mengikut urutan yang betul merujuk ***carta alir mengesan kerosakan seterika elektrik*** dengan menuliskan **A, B, C, E, F** dan **G** pada ruang jawapan.

Langkah 1	Langkah 2	Langkah 3	Langkah 4	Langkah 5	Langkah 6	Langkah 7

LIVEWORKSHEETS

2. Berikut adalah keputusan ujian menggunakan meter pelbagai yang dijalankan pada komponen seterika elektrik setelah mendapat aduan seterika tidak panas setelah suis dihidupkan.

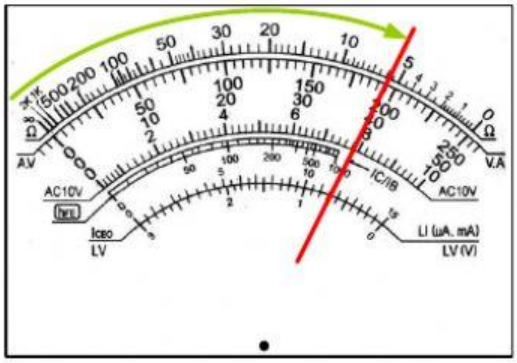

Talian bekalan

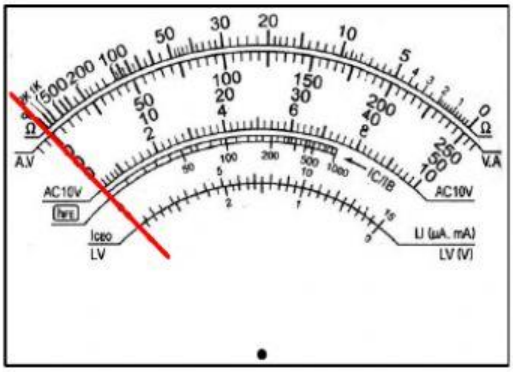

Fius



Pelaras suhu



Elemen pemanas

(a) Berdasarkan pemerhatian di atas,
Nyatakan 2 punca masalah yang berlaku.

_____

_____

_____

_____

b) Nyatakan dua langkah keselamatan yang diamalkan ketika menjalankan kerja baik pulih seterika elektrik.

_____

_____

LIVEWORKSHEETS