Nama : _____ Kelas : _____ Tarikh : _____

Tema: Inkuiri dalam Sains
Tahap Penguasaan: TP I

Unit 1: Kemahiran Saintifik

Apakah deria-deria yang digunakan untuk memerhati? Nyatakan.

Pendengaran | Sentuhan | Penglihatan | Bau | Rasa

Jenis deria

1

Deria _____

3

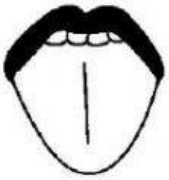

Deria _____

5

Deria _____

2

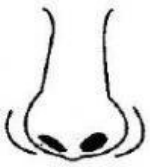

Deria _____

4

Deria _____

SK: 1.1 *Kemahiran proses sains*
SP: 1.1.1

LIVEWORKSHEETS

Nama : _____ Kelas : _____ Tarikh : _____

Tema: Inkuiri dalam Sains
Tahap Penguasaan: TP1

Unit 1: Kemahiran Saintifik

Apakah deria yang digunakan untuk pemerhatian yang berikut? Padankan.

TP1

1

2

3

4 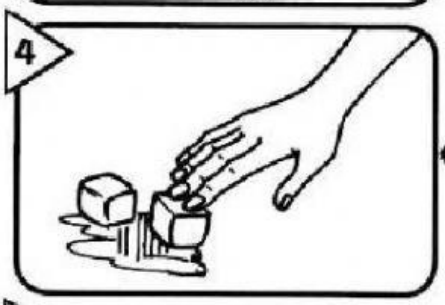

5

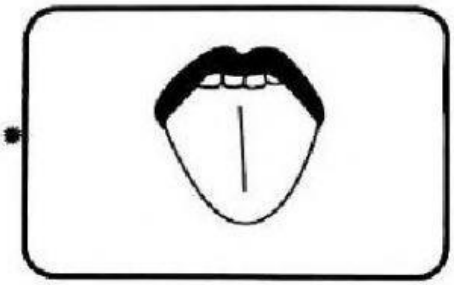



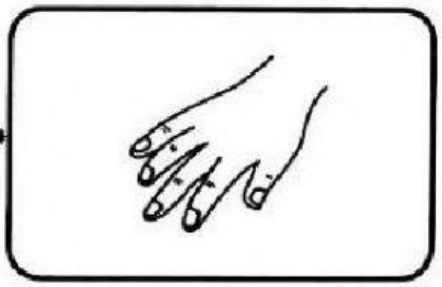

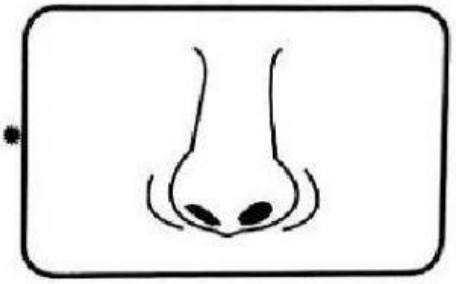

SK: 1.1 *Kemahiran proses sains*
SP: 1.1.1

LIVEWORKSHEETS

Nama : _____ Kelas : _____ Tarikh : _____

Tema: Inkuiri dalam Sains
Tahap Penguasaan: TP1, TP3

Unit 1: Kemahiran Saintifik

A Nyatakan semua deria yang terlibat dalam aktiviti di bawah. TP1

1

Deria: _____ dan _____.

2

Deria: _____, _____ dan _____.

B Tandakan (✓) bagi pemerhatian yang betul. Tandakan (X) bagi pemerhatian yang salah.

Objek	Deria	Pemerhatian	
1	Bau	Sedap	
		Busuk	
	Rasa	Masin	
		Manis	
2	Pendengaran	Bunyi kuat	
		Bunyi perlahan	
	Penglihatan	Merah	
		Kuning	

SK: 1.1 *Kemahiran proses sains*
SP: 1.1.1

LIVEWORKSHEETS

Nama : _____ Kelas : _____ Tarikh : _____

Tema: Inkuiri dalam Sains
Tahap Penguasaan: TP4

Unit 1: Kemahiran Saintifik

Lihat rajah di bawah. Namakan alat yang berikut. TP4

1 Alat untuk membantu penglihatan

a

b



2 Alat untuk membantu pendengaran

a

b

SK: 1.1 *Kemahiran proses sains*
SP: 1.1.1

LIVEWORKSHEETS

Nama : _____ Kelas : _____ Tarikh : _____

Tema: Inkuiri dalam Sains
Tahap Penguasaan: TP3

Unit 1: Kemahiran Saintifik

Suaikan cara berkomunikasi yang betul dalam Sains. TP3

1

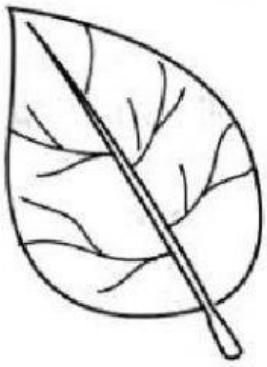

Tulisan

2

Lakaran

3

Lisan

SK: 1.1 *Kemahiran proses sains*
SP: 1.1.2

LIVEWORKSHEETS