SOAL LATIHAN PENGETAHUAN

I. Berilah tanda Silang pada huruf a,b,c atau d pada jawaban yang tepat!

1. Di bawah ini yang bukan merupakan arti pantun adalah ....
   A. Pantun adalah jenis puisi lama.
   B. Pantun merupakan salah satu karya yang dapat menghibur dan juga mendidik.
   C. Pantun merupakan suatu ungkapan perasaan serta pikiran, karena ungkapan tersebut disusun sehingga membentuk sebuah rangkaian kata-kata yang menarik.
   D. Pantun adalah jenis puisi modern.
2. Perhatikan pernyataan di bawah ini!
   1. bersajak a-b-a-b,
   2. Satu bait terdiri atas enam baris,
   3. Tiap baris terdiri atas 8 sampai 12 suku kata.
   4. Setiap bait terdiri atas empat baris

   Yang merupakan ciri-ciri pantun yaitu ....
   A. 1 , 2 , 3
   B. 2 , 3 , 4
   C. 1 , 3 , 4
   D. 1 , 2 , 4
3. Di bawah ini yang bukan merupakan ciri-ciri tangga nada mayor adalah ....
   A. Bersemangat
   B. Riang gembira
   C. Biasanya diawali dan diakhiri dengan nada LA = A
   D. Mempunyai pola interval 1–1–½–1–1–1–½.
4. Perhatihan lagu dibawah ini !



LIVEWORKSHEETS

Lagu diatas merupakan contoh lagu yang menggunakan tangga nada …..

A. Diatonis Mayor
B. Diatonis Minor
C. Pentatonis Pelog
D. Pentatonis Slendro

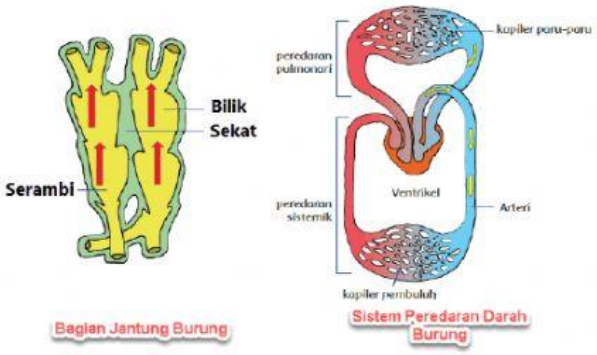

5. Dari gambar alat peredaran darah pada burung disamping, fungsi dari pembuluh arteri yang tepat adalah ....

A. Mengalirkan darah bersih ke seluruh tubuh
B. Mengalirkan darah bersih ke jantung
C. mengalirnya darah kotor ke serambi
D. mengalirnya darah kotor ke paru-paru

6. Perhatikan pernyataan di bawah ini!
1. berfungsi memompa darah ke seluruh tubuh.
2. memompa darah dengan cara berkontraksi dan berelaksasi secara bergantian,
3. berfungsi menyuplai oksigen
4. berfungsi sebagai tempat mengalirnya darah ke seluruh tubuh
Yang merupaka fungsi dari jantung ditunjukkan nomor ....
A. 1 dan 3
B. 2 dan 4
C. 1 dan 2
D. 3 dan 4

II. Uraian!

1. Sebutkan jenis pantun berdasarkan isinya!
2. Perhatikan pantun dibawah ini !

Merah muda baju si bibi

Di tangannya ada bayam seikat

Masalah warga datang bertubi

Berkumpullah untuk mufakat

Apa makna dari pantun diatas?

Ciri-ciri tangga nada

- dinyanyikan dengan gembira

- interval nada 1-1-1/2-1-1-1-1/2

LIVEWORKSHEETS

- *interval nada 1-1/2-1-1-1/2-1-1*
- *dinyanyikan dengan nada pelan/ bersifat sedih*
- *biasanya diawali nada C=do*
- *biasanya diawali nada A=la*

3. Tentukan yang merupakan ciri-ciri tangga nada minor !
4. Berikan contoh lagu yang menggunakan tanda nada mayor dan minor !

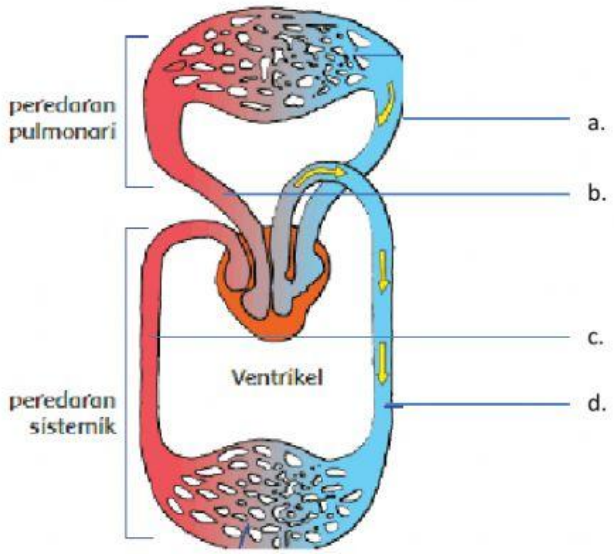

5. Berdasarkan gambar diatas, buktikan pembuluh darah yang ditunjukkan huruf "d" disebut pembuluh arteri.

6. Buatlah urutan peredaran darah pada burung dimulai dari darah keluar melalui arteri dengan benar!

LIVEWORKSHEETS