2. SINIF MATEMATİK
TEST - 01
DOĞAL SAYILAR

Yeni Nesil

1.

Kutulardaki sayıların rakamlarının basamak değerleri balonlarla eşleştiriliyor.

Boşta kalan basamak değerleriyle hangi sayı oluşturulur?

A) 37 B) 67 C) 76

2.



Kartona yapıştırılan yaprak sayısı yazılırken hangi rakam kullanılmaz?

A) 2 B) 4 C) 6

3.

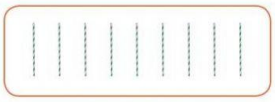

Pipet sayısının bir düzine olması için kaç pipet daha gereklidir?

A) 1 B) 2 C) 3

4.

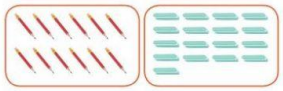

Kutulardaki kalem ve silgi sayıları hangisinde verilmiştir?

A) 12 - 17 B) 13 - 18 C) 11 - 16

5. Hangi kutunun içinde bir deste yıldız vardır?

A)

B)

C)

6.

2 onluk 1 birlik	12	21
8 birlik 7 onluk	87	78
3 onluk 6 birlik	36	63

Onluk ve birlikleri verilen sayılar kesilip alındığında hangi kartlar kalır?

A)

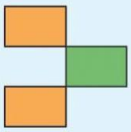

B)

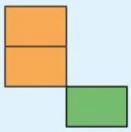

C)

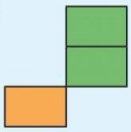

7.

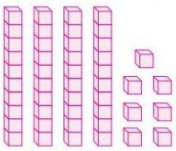

Taban bloklarıyla gösterilen sayının onluk ve birlik sayıları hangisinde doğru verilmiştir?

	Onluk	Birlik
A)	4	7
B)	7	4
C)	40	7

8. Onlar basamağındaki rakamının basamak değeri 70 olan en büyük ve en küçük sayılar hangileridir?

A) 17 - 71 B) 70 - 79 C) 71 - 79

9. Hakan'ın elinde tuttuğu sayı ile ilgili hangi ifade yanlıştır?

A) Birler basamağında 3 vardır.

B) 8'in basamak değeri 80'dir.

C) Basamak değerleri toplamı 11'dir.

10.

Abaküsün onluklarına ve birliklerine birer boncuk eklendiğinde hangi sayı oluşur?

A) 35 B) 36 C) 46

LIVEWORKSHEETS