1. Àfrica i els seus pares se'n van de viatge i calculen el preu dels bitllets d'avió. Els bitllets de l'anada valen 721 €. En canvi, els de la tornada valen 584 €. Quina diferència de preu hi ha entre l'anada i la tornada?

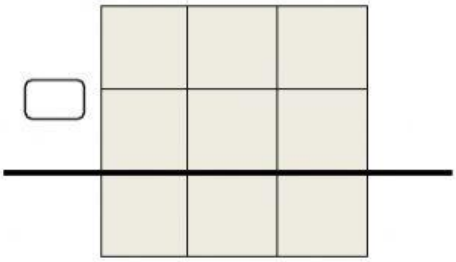

La diferència és de

2. Durant el viatge visiten un parc d'atraccions, però Àfrica no pot pujar a algunes atraccions perquè no arriba a la mesura necessària que és 150cm. Ella mesura 133cm. Quants cm li falten per poder pujar a les atraccions?

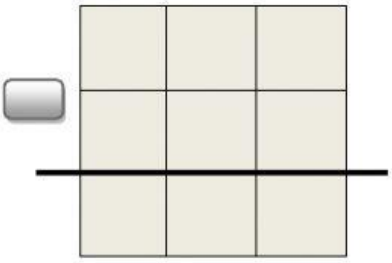

La diferència és de

3. En la botiga del parc d'atraccions compren uns regals de record.

Quants diners s'han gastat en regals?

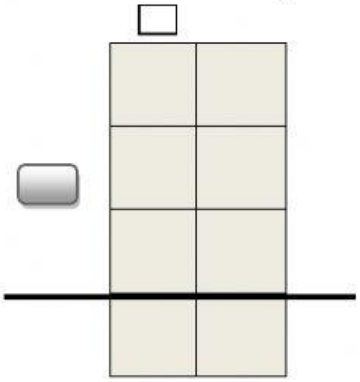

S'na gastat

LIVEWORKSHEETS

4. Entren al parc d'atraccions a l'hora que marca este rellotge. Quina hora és?

Ixen del parc a l'hora que marca este rellotge. Quina hora es?

5. Quan tornen cap a casa, la família compra revistes i llibres per al viatge.

Compren 6 revistes. Quin seria el preu total?

___ ___ ___ = ___

També compren 3 llibres. Quant es gasten en llibres?

___ ___ ___ = ___

Quants diners es gasten en <u>total entre les revistes i els llibres</u>?

___ ___ ___

En total es gasten ___

Si paguen amb un bitllet de 100€. Quants diners els hi tornaran?

___ ___ ___

Els hi tornaran ___

LIVEWORKSHEETS