PHIẾU HỌC TẬP

ÔN CUỐI TUẦN 5 - Mã 3502

Ngày …….tháng…….năm

Họ và tên: …….. Lớp :……

1 Tìm các phép tính có kết quả bằng phép tính đã cho

48 : 6	=		21 : 3
42 : 6	=		20 : 4
36 : 4	=		18 : 2
30 : 6	=		32 : 4

2 Viết số thích hợp (theo mẫu)

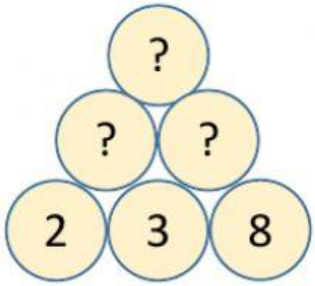

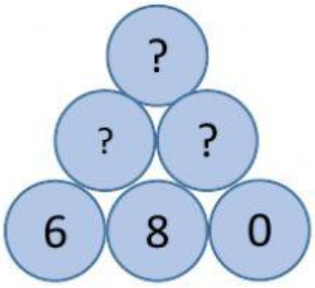

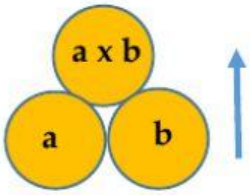

3 Sắp xếp các cây nấm theo thứ tự từ lớn đến bé

Bạn có thể thành công nếu bạn tin là bạn có thể LIVEWORKSHEETS

4 **Giúp bạn ong tìm đường đến bông hoa bằng cách chọn các đáp án đúng**

$\frac{1}{2}$ của 18kg	8kg	$\frac{1}{5}$ của 45m
9kg		9m
$\frac{1}{4}$ của 32 phút	8 phút	$\frac{1}{6}$ của 60l
6 phút		10l
$\frac{1}{4}$ của 28km	7km	

5 **Trong thư viện có 14 học sinh. Trong đó có một nửa số học sinh đang đọc sách về khoa học. Hỏi có bao nhiêu học sinh đang đọc sách về khoa học?**

Bài giải

……..

□ ○ □ = □ (học sinh)

Đáp số: ……học sinh.

6 **Tìm tích của số bé nhất có hai chữ số khác nhau với số chẵn lớn nhất có một chữ số là:**

Trả lời: □

Bạn có thể thành công nếu bạn tin là bạn có thể LIVEWORKSHEETS