PHIẾU BÀI TẬP TOÁN

ĐỀ- XI- MÉT

Bài 1. Số?

Kẹp giấy dài ☐ cm



Dụng cụ gọt bút chì dài ☐ cm



Bút chì dài ☐ cm

Bài 2. Em hãy nối các ô có cùng kết quả.

1 dm	2 dm	7 dm	30 cm	80 cm	50 cm

20 cm	10 cm	70cm	8 dm	5 dm	3 dm

Bài 3. Quan sát hình vẽ và chọn từ thích hợp.



- **Độ dài đoạn thẳng AB ☐ 1dm.**
- **Độ dài đoạn thẳng CD ☐ 1dm.**
- **Độ dài đoạn thẳng AB ☐ độ dài đoạn thẳng CD.**
- **Độ dài đoạn thẳng CD ☐ độ dài đoạn thẳng AB.**

LIVEWORKSHEETS LIVEWORKSHEETS