CLIMAS DE ESPAÑA. TIPOS NUBE. INSTRUMENTOS MEDIDA

Nombra los climas que existen en cada zona de España.

1. Según la gráfica:
   Llovió más el mes de
   Llovió menos el mes de
   La temperatura más baja fue de grados.
   La temperatura más alta fue de grados.

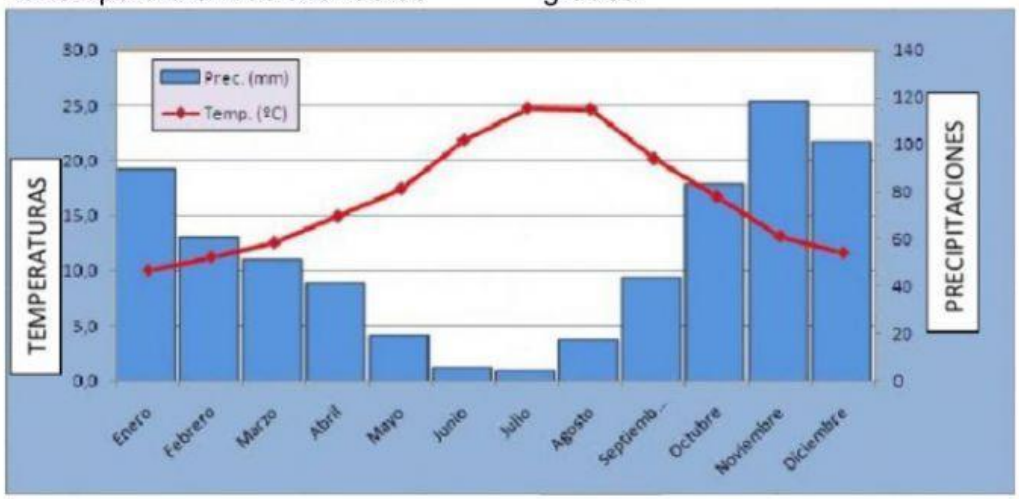

LIVEWORKSHEETS

Señala a qué clima pertenecen.

TEMPERATURAS	PRECIPITACIONES
Las **temperaturas** son suaves debido a la proximidad del mar. Los veranos son frescos, con unos 20 °C; y los inviernos templados, en torno a los 11 °C.	Las **precipitaciones** son escasas e irregulares, se concentran en primavera y otoño. También tienen sequía estival.
Las **temperaturas** son bajas en invierno, por debajo de los 0 °C; y frescas en verano, cerca de los 15 °C.	Las **precipitaciones** son escasas, en algunos lugares apenas llueve.
Las **temperaturas** se caracterizan por inviernos templados, con temperaturas que no suelen bajar de los 10 °C; y por veranos calurosos, en torno a los 25 °C, aunque se pueden superar los 40 °C.	Las **precipitaciones** son escasas e irregulares, se concentran en primavera y otoño. En verano suele haber sequía.
Las **temperaturas** son muy bajas en invierno, a veces por debajo de los 0 °C; y altas en verano, más de 22 °C.	Las **precipitaciones** son abundantes y regulares, porque se reparten entre todas las estaciones.
Las **temperaturas** son suaves todo el año, en torno a los 20 °C, con pocos cambios entre las estaciones.	Las **precipitaciones** son abundantes y en invierno suelen ser en forma de nieve.

LIVEWORKSHEETS

Escribe el nombre de cada tipo de nube. Ponlo en plural.

LIVEWORKSHEETS

Señala el nombre de cada aparato.





LIVEWORKSHEETS